育賢國中112學年度第二學期國文科補考題庫 (七年級)

7年___班　座號：___姓名：

1.(　)下列各「　」中的字，何組讀音「不同」？ (A)「乍」暖還寒／仵「作」 (B)「黎」明來到／「梨」園子弟 (C)人間天「籟」／百無聊「賴」 (D)溫柔「婉」約／「宛」轉有致。
答案：(A)

2.(　)「麻雀雖小，五臟俱全。」這句話與下列何者意思最相近？ (A)大度包容 (B)具體而微 (C)宛轉有致 (D)滄海一粟。
答案：(B)

3.(　)報紙上有許多客觀與主觀的用詞，下列文句，何者屬於主觀評論？ (A)加拿大賞楓行，美麗舒適，處處充滿驚奇 (B)全球近三千種語言，瀕臨消失 (C)新流感肆虐，臺北地區多所學校停課 (D)寶特瓶回收金，八月起取消。
答案：(A)

4.(　)對於賣芭樂老阿伯的叫賣聲，陳黎為何說：「如果你在心裡一遍遍學著，你一定可以聽到跟牛犁歌或丟丟銅仔一樣鮮活有趣的旋律」？ (A)因為都是宜蘭調，旋律節奏相仿 (B)因為都是叫賣聲，容易打動人心 (C)因為都緣於生活，鄉土情懷相近 (D)因為都是相同語言，聲情音調相若。
答案：(C)

5.(　)下列「　」中的注音寫成國字後，何組字形相同？ (A)我住的地方環境清「一ㄡ」／歸隱之後，他的生活好不「一ㄡ」閒 (B)失去了摯愛，他悲不可「一ㄟ」／考試失利之後，他整日「一ㄟ」鬱寡歡 (C)他在紅紙上寫了「ㄉㄡˇ」大的一個喜字／配合著進行曲的節奏，大家精神「ㄉㄡˇ」擻地邁開步伐 (D)那清「ㄘㄨㄟˋ」的叫喊聲只有幾個音節／下過雨後，草木顯得更加青「ㄘㄨㄟˋ」。
答案：(B)

6.(　)下列生活常用的文句，哪一句「沒有」夾雜方言或外來語？ (A)奧運棒球賽，是所有中華隊球迷的大代誌 (B)明天要期末考，我又得開夜車了 (C)許多遠距離戀愛的情侶只能寫伊媚兒傳情 (D)這部電影的結局霧煞煞，讓人摸不著頭緒。
答案：(B)

7.(　)下列文句，何者用詞最恰當？ (A)寧可自己吃點小虧，不如占人便宜 (B)除非你洗心革面，而且邁向新的人生 (C)與其讓你做些無意義的事，或者我親自解決較恰當 (D)儘管他對禮儀規範倒背如流，臨場表現還是頻頻失誤。
答案：(D)

8.(　)「當主診醫生證實並宣告病人腦死後，會先評估死者是否適合捐贈器官，再向家屬說明及徵詢意見。如果家屬同意，院方會深入了解病人生前的病歷與生活習慣，檢驗血液以確認其有無感染狀況，若有特殊疾病則不適合移植。文件齊備後，器官移植小組會作最後評估及決定。適用的器官確定後，院方會安排手術，並聯繫合適的病人進行移植。」上述關於器官移植的說明，並未提及哪個部分？ (A)器官移植的限制 (B)器官移植的流程 (C)器官移植的發展史 (D)器官捐贈者的狀況。
答案：(C)

9.(　)下列各選項的敘述，何者用字完全正確？ (A)因為有他的大力推廣，消息像漣椅一般擴散出去 (B)他一心一意想追求不朽的功名，卻忘了最重要的是健康和簡單的幸福 (C)不分青紅皂白就找人爭論，不僅陡勞無功，還會讓彼此的情誼生變 (D)這枚戒指捐刻了他們的愛情，代表生生世世的盟約。
答案：(B)

10.(　)張忠謀：「每個人的生命，都被上蒼劃上了一道缺口，你不想要它，它卻如影隨形。以前我也痛恨我人生中的缺失，但現在我卻能寬心接受，因為我體認到生命中的缺口，彷若我們背上的一根刺，時時提醒我們謙卑，要懂得憐恤。」這段話的主旨與下列何者最接近？ (A)人生不如意事十之八九 (B)寬恕別人才是放過自己 (C)沒有缺點的人才能獲得成功 (D)逆境使我們成長。
答案：(D)

11.(　)「或比肩齊步，或互相追逐，或者乾脆是曹操的戰艦□首尾相連。」缺空處的標點符號應填入下列何者才正確？ (A)， (B)； (C)： (D)——
答案：(D)

12.(　)「各色各樣的紙船或列隊而出，或千里單騎，或比肩齊步……。」文中運用動詞生動呈現出人或物的動態，屬「動態的描寫」。下列何者也使用同樣的手法？ (A)點點的螢光，明滅閃爍在草叢、樹林、籬邊、水際 (B)那霧中的岡巒，像一群溫馴的綠毛動物 (C)這片藍天在你心裡，晶瑩剔透，蔚成永恆的顏色 (D)威尼先生田裡的葡萄種類極多，每一球不下百餘顆，顆顆勻稱飽滿。
答案：(A)

13. (　) 關於紙船印象一文，下列何者敘述正確？ (A)作者認為他童年中的紙船印象是過眼雲煙、倏忽即逝 (B)全文夾敘夾議，充滿了濃厚的懷舊氣氛 (C)由文章中提及的「早已年過而立」可以推斷作者當時未滿三十歲 (D)作者在結尾期許自己能像母親一樣，把這份愛傳遞給下一代。
答案：(D)

14. (　) 紙船印象一文藉由回憶童年玩紙船的往事，勾勒出平凡樸實卻偉大深刻的母愛圖像，以「紙船印象」與「母愛刻畫」作連結，傳達出獨特的人生經驗。有關作者在文章中的鋪排順序，下列何者正確？ (A)人→物→情 (B)情→人→物 (C)人→情→物 (D)物→人→情。
答案：(D)

15. (　) 「下、耳、門、日、月」，以上屬「象形」字的是哪幾個？ (A)下、耳、門 (B)下、耳、日 (C)耳、門、日、月 (D)下、日、月。
答案：(C)

16. (　) 在文學創作中，常將具體事物作相關性的意義聯想，像「風箏」可以象徵自由、希望、冒險等。下列哪一組詞語的「相關性」聯想「最不合理」？ (A)鳳凰花——愛情 (B)白鴿——和平 (C)螞蟻——勤奮 (D)狐狸——狡猾。
答案：(A)

17. (　) 跳水一詩中，何者最能展現出色彩畫面感？ (A)在跳板與水面之間 (B)描畫出從容的曲線 (C)讓青春去激起 (D)陶醉於下面的湛藍。
答案：(D)

18. (　) 「張先生勤奮努力，待人誠信，難怪他的業績□□□□，領先群倫。」缺空處的成語應填入下列何者？ (A)乘風破浪 (B)搖擺不定 (C)隨波逐流 (D)扶搖直上。
答案：(D)

19. (　) 「黃河遠上白雲間，一片孤城萬仞山。羌笛何須怨楊柳，春風不度玉門關。」此詩為王之渙所作，依據詩的內容判斷，王之渙應是唐代哪一派詩人？ (A)浪漫派 (B)邊塞派 (C)田園派 (D)社會寫實派。
答案：(B)

20. (　) 出獄歸家一詩中，作者用哪一句表達出殖民強權統治下，臺灣早已失去原有的風貌？ (A)莽莽乾坤舉目非 (B)此生拚與世相違 (C)誰知到處人爭看 (D)反似沙場戰勝歸。
答案：(A)

21. (　) 下列有關唐絕句的敘述，何者「有誤」？ (A)關於每句的字數規定嚴格，有五言與七言之分 (B)詩中的格律也有所規定，平仄、押韻皆不可隨意 (C)絕句第三句不可押韻 (D)於詩中對仗要求與律詩相同，首二句一定要對仗。
答案：(D)

22. (　) 「很高興石虎的出現，讓我們有了一個新契機，認真地看待淺山美學，嚴肅地反省郊野跟城鎮的關係。」劉克襄這段話的意思是什麼？ (A)石虎的蹤跡再現，讓人發現石虎的美麗 重新規畫淺山環境 (B)石虎的出現讓大家重視淺山生態問題，思考人與環境的議題 (C)淺山的美因為石虎出現才讓大家重視，進而重新認識淺山之美 (D)石虎是發展偏鄉觀光的新契機，因為石虎可以帶動地方經濟。
答案：(B)

23. (　) 以下書法作品應為何種書體？




(A)楷書 (B)隸書 (C)草書 (D)行書。
答案：(B)

24. (　) 五柳先生傳中提到五柳先生好飲酒，每到親友家中飲酒，卻又「不吝情去留」，可見五柳先生的個性如何？ (A)嗜酒如命，貪小便宜 (B)謹守本分，不敢造次 (C)任真自得，自然率性 (D)急公好義，古道熱腸。
答案：(C)

25. (　) 隨著電腦網路搜尋系統的發達，在網路上尋找資料越來越方便，如果你想找陶淵明的詩，除人名外，還可以輸入哪些意象關鍵詞？ (A)悲笳、戎馬、征夫 (B)東籬、菊花、荊扉 (C)詠絮、倚樓、落花 (D)國破、濺淚、驚心。
答案：(B)

26. (　) 下列選項「　」中的字，何者意思與樂器「無關」？ (A)「琴」棋書畫 (B)濫「竽」充數 (C)「笙」歌鼎沸 (D)「簞」瓢屢空。
答案：(D)

27. (　) 「□□陶淵明讀書不求甚解，□□當他對書中內容有所會意時，便欣然忘食。□□家中環堵蕭然，簞瓢屢空，他□□安然自得，已經到達富貴於我如浮雲的境界。」以上缺空處最適宜填入的連詞依序為何？ (A)雖然、但是、不過、只要 (B)雖然、但是、即使、仍然 (C)因為、所以、與其、不如 (D)不但、而且、即使、可是。
答案：(B)

28. (　) 「牡蠣面臨一個選擇」句中的「選擇」一詞是由「選」和「擇」意思相同的兩個字所組成的「同義複詞」。下列「　」中的詞語，何者是同義複詞？ (A)不管你們有什麼「恩怨」，都不應該動手打人 (B)教室裡鴉雀無聲，一點「動靜」也沒有 (C)在馬路上飆速前進「駕駛」是危險的行為 (D)身為晚宴的主辦人，希望大家都能「賓主」盡歡。
答案：(C)

29. (　) 「生命像五線譜，有高昂的音符，也有低沉的音符。我們如果只選擇高昂而捨棄低沉，就不能奏出美妙的樂章。」這段話的涵義，與下列何者最接近？ (A)音樂的魅力，來自旋律的高低起伏 (B)人生應致力向上提升，拒絕向下沉淪 (C)音樂使生命更豐富，生命使音樂更美妙 (D)生命的精彩，來自於在得意與失意交錯中成長。
答案：(D)

30. (　) 「有一個楚國人到鄭國賣珍珠，他用木蘭木做了一個裝珍珠的盒子，用香木薰得香香的，盒子外面用翡翠和玫瑰來裝飾。結果鄭國人買了他的盒子，卻將珍珠退還。那楚人可說是擅於賣盒子，卻不擅於賣珍珠了！」楚人賣珠這個故事後來被濃縮成「買櫝還珠」。根據本文，「買櫝還珠」的意思最可能為下列何者？ (A)貨真價實，童叟無欺 (B)竭力宣忠，感恩圖報 (C)捨本逐末，取捨失當 (D)進退兩難，處境窘困。
答案：(C)

31. (　) 「牡蠣面臨一個選擇，一是抱怨，讓自己的日子很不好過；另一個是想辦法把這粒砂子同化，使它跟自己一樣，和平共存。」這段話運用了映襯法，下列何者也使用了相同的修辭技巧？ (A)安靜無聲的夏夜，傳來轟隆的巨響 (B)鑰匙從我的手上逃走了 (C)路，是無聲的語言，無形的文字 (D)這一幅圖畫美得叫人喘不過氣來。
答案：(A)

32. (　)

> 戰國時代，趙國的藺相如因「完璧歸趙」等功績，被任命為上卿。將軍廉頗出生入死，屢建奇功，官階卻在藺相如之下，內心忿恨不平，故對部下說：「假如有一天在外面碰到他，我非要當面侮辱他一頓不可！」
>
> 藺相如得知此事後，就刻意避開與廉頗相遇。藺相如的門客不滿他的怯懦，紛紛求去。藺相如回應：「朝廷重臣若彼此交惡，會危及國家安定，所以我才這般忍讓！」廉頗耳聞這番話後非常慚愧，於是脫去上衣背著荊條，親自到藺相如家認錯。藺相如並未怪罪他，此後二人成為生死與共的好友。

有關本段的說明，下列何者不適當？ (A)藺相如展現了「宰相肚裡能撐船」的度量 (B)廉頗因藺相如的回應，自慚形穢而盡釋前嫌 (C)廉頗善用「以退為進」的方法，獲得藺相如欽服 (D)從二人身上讓我們體會到「君子量大，小人氣大」。
答案：(C)

33. (　) 美國總統羅斯福的家曾經失竊，財物損失慘重。朋友聞此消息，就寫信來安慰他，勸他不必把這件事放在心上。羅斯福總統很快回信說：「親愛的朋友，謝謝你來信安慰我，我一切都很好。我想我應該感謝上帝，因為：第一，我損失的只是財物，而人卻毫髮未損；第二，我只損失了部分財物，而非所有財產；第三，最幸運的是，做小偷的是那個人，而不是我。」下列何者可以為這個故事作註解？ (A)愉快的生活是由愉快的思想造成的 (B)真正的成就是幫助遇遭的人一起成就 (C)知識是一座寶庫，而實踐是開啟寶庫的鑰匙 (D)少年易學老難成，一寸光陰不可輕。
答案：(A)

34. (　) 「在社會中見到他人遭受苦難，豈可□□□□，不顧他人死活，有能力應該發揮□□□□的精神，盡一己小小的棉薄之力，方顯人間不是冷漠，而是處處有溫情的所在。」句中缺空處依序應填入下列何者最為恰當？ (A)過河拆橋／拔刀相助 (B)袖手旁觀／雪中送炭 (C)雪中送炭／落井下石 (D)袖手旁觀／過河拆橋。
答案：(B)

35. (　) 有些作家會以映襯手法為著作命名，以凸顯主題，如：最親密的陌生人。下列書籍何者也使用相同的方式命名？ (A)走在夢想的路上 (B)鐵意志與柔軟心 (C)二十一世紀生死課 (D)歷史課聽不到的奇聞
答案：(B)

36. (　) 「她雪白的頭髮，顫抖的聲音，在搖曳的燭光下，使我想起兒時的祖母。那天晚上，我忽然覺得我平靜如水的情感翻起滔天巨浪來。」作者這次感情的激盪乃由於什麼因素？ (A)久別思親 (B)睹物思人 (C)觸景生情 (D)氣氛浪漫。
答案：(C)

37. (　) 「這一生中，除了吃新鮮的肉，總該還有些我還不知道、令人嚮往的東西。」這句話說出安哥拉貓此時此刻的想法為何？ (A)相信外面的世界還有更多美好的事物 (B)認為除了家裡，沒有更適合自己的地方 (C)拒絕到陌生不知就裡的地方重新生活 (D)決心脫離現在辛苦又悲慘的生活環境。
答案：(A)

38. (　) 「簡直要昏過去了」、「我快嚇暈了」、「身上的脂肪都快溶化了」關於這三句所使用的修辭，下列何者正確？ (A)運用「映襯」修辭 (B)運用「誇飾」修辭 (C)運用「設問」修辭 (D)運用「排比」修辭。
答案：(B)

39. (　) 下列選項的「藏」字，何者讀音與其他三者「不同」？ (A)躲藏 (B)藏污 (C)藏身 (D)藏匿。
答案：(B)

40. (　) 下列「　」中的量詞，何者使用正確？ (A)一「段」好心腸 (B)一「幅」小天地 (C)一「頂」羽絨床墊 (D)一「扇」半開的窗。
答案：(D)

# 新竹市立育賢國民中學112學年度第2學期七年級英語科補考題庫試卷

一、綜合測驗

(C) 1. Fiona: _____ your brothers play baseball at school every day?
Ray: Sure.
(A) Is (B) Are (C) Do (D) Does

(C) 2. I don't have a sister, and you don't, _____.
(A) also (B) too (C) either (D) together

(B) 3. Brian: _____ you play video games on weekdays?
Cindy: No, I can't.
(A) Are (B) Can (C) Do (D) Does

(C) 4. Selina: Do your classmates watch TV on weekends?
Hebe: Yes, _____.
(A) we do (B) we don't (C) they do (D) they don't

(D) 5. I can play basketball very well, but my brothers _____.
(A) aren't (B) don't (C) doesn't (D) can't

(A) 6. I love volleyball, but I can't play _____ every day. I have lots of homework and I worry about my grades.
(A) it (B) its (C) it's (D) them

(A) 7. My parents don't _____ at home on weekdays.
(A) cook (B) cooks (C) cooking (D) to cook

(A) 8. Mandy: _____ can we do after school?
Steve: Maybe we can play baseball.
(A) What (B) How (C) Where (D) Who

(D) 9. William: _____ is your new dress?
Kate: It's only two hundred dollars.
(A) How (B) What (C) How many (D) How much

(A) 10. Junior high school students must _____ the school rules.
(A) follow (B) follows (C) following (D) to follow

(D) 11. Tina: _____ your father exercise at Daan Park every morning?
Stacy: Yes, he _____.
(A) Do ; do (B) Does ; do (C) Do ; does (D) Does ; does

(B) 12. My sister _____ math, but I don't.
(A) like (B) likes (C) don't like (D) doesn't like

(C) 13. Mother's Day in Taiwan is _____ the second Sunday _____ May.

(A) on; on (B) of; on (C) on; in (D) in; in

(D) 14. I can't get home _____ ten o'clock. Please help me make a pizza first.

(A) so (B) and (C) but (D) until

(A) 15. Oscar wants to make a pie. He needs _____ eggs and _____ flour.

(A) five; some (B) five; any (C) some; five (D) any; five

(B) 16. A: It's cold here. Can I have a cup of hot chocolate?

B: Sure. Here _____.

(A) are you (B) you are (C) is it (D) for you

( D )17.A:_____ cups of coffee does the man drink every day?

B: He drinks three cups of coffee every day.

(A) Whose (B) Which (C) How much (D) How many

( D )18. A: I can't make banana cakes.

B: _____, and you can make some yummy ones.

(A) Wait a minute (B) Mix them together (C) Have some bananas (D) Follow the steps

( B )19. Ben: Which drink do you like, coffee or juice? Ivy: I want _____.

(A) one (B) both (C) any (D) all

( C )20. A: _____ storybook is this?

B: It's _____.

(A) Who's; mine (B) Who's; me (C) Whose; mine (D) Whose; me

( B )21. A: _____ does Betty have dance class?

B: On Fridays.

(A) What time (B) When (C) What date(D) What month

( C ) 22. A: What's _____ today?

B: It's March 24th.

(A) the day (B) the month (C) the date (D) the time

( A )23. Today is November 25th. Christmas is still _____.

(A) a month away (B) away a month (C) a month far (D) far from a month

( B )24. Jimmy wants two _____ of juice and two pieces of _____.

(A) bags; water (B) cans; cake (C) bottles; hot dogs (D) glasses; salt

( C )25.Listen when someone is talking. Be kind to people. Don't _____ the class rules.

(A) believe (B) batter (C) break (D) beside

( B )26. Rita and Rose are good sisters. They share food and the housework. Rita _____, and Rose does the dishes.

(A) takes a shower (B) mops the floor (C) does homework (D) brushes the teeth

( B )27. Wash your hands before eating, or the _____ on your *fingers may* go into your mouth. 📖 or 否則

(A) following (B) germs (C) show (D) habit

( A )28. Jack: Someone is at the door. Are we expecting someone? 📖 expect 期待

Jack's mother: Your uncle, Leo, is stopping by. Can you _____ the door for me? 📖 stop by 順便拜訪

(A) answer (B) make (C) mix (D) heat

( C )29. The soccer _____ starts in the late February and ends in December of the same year. 📖 end 結束

(A) player (B) team (C) season (D) shoes

( D )30. Green _____ can be anywhere. For example, parks, gardens, or even street trees.

(A) castles (B) dragons (C) noodles (D) spaces

( A )31. The _____ from Hsinchu to Taipei takes about seventy-five minutes by bus. 📖 take 花費

(A) trip (B) ticket (C) station (D) restaurant

( A )32. My father is a _____. He is always busy with his work, and he often goes on business trips.

(A) businessman (B) cook (C) doctor (D) farmer

( B )33. Many people _____ visit Hong Kong. They enjoy nice food, watch shows and visit old streets.

(A) after school (B) around the world (C) along the river (D) anytime

( C )34. Frank eats out _____, but he always cooks with his family on weekends.

(A) every day (B) once a year (C) five times a week (D) once an hour

( D )35. Scoot: How often do you clean your place? Fiona : _____

(A) Yes, I do. (B) No, it's not dirty. (C) We clean it together. (D) Every two months.

( D )36. Jerry: Do you play video games after school? Ray: No, I _____ do.

(A) always (B) usually (C) often (D) seldom

( B )37. Cindy is always late for school, but Andy _____.

(A) always is (B) seldom is. (C) never does (D) often does

( B )38. Ben loves reading. You _____see him in the school library.

(A) usually can (B) can usually (C) can seldom (D) seldom can

( A )39. Mike: Where's Jenny? Eric: She was there just a minute_____.

(A) ago (B) last (C) before (D) yesterday

( C )40. Harry was driving with his family on a sunny Saturday morning. They_____ singing their favorite song together.

(A) are (B) is (C) were (D) was

( C )41. _____the weather in Taipei in summer? It is hot and sunny.

(A) What's (B) What was (C) How's (D) How was

( D )42. Mei: Was _____ much rain here last winter?

Ray: No, _____.

(A) it ; it wasn't (B) we; we don't (C) they ; they don't (D) there ; there wasn't

( A )43. Nick: What is the weather like in your hometown now?

Helen: It is winter in Sydney. It is cold and wet.

Nick: _____

Helen: No, but there is a lot of rain.

(A) Does it snow in Sydney in winter? (B) Is there a lot of rain in Sydney in winter?

(C) Do you have rain in Sydney in winter? (D) Is it cold in Sydney in winter?

二、克漏字選擇

(Jackie and Sandy are talking in the classroom.)
Sandy: What sport _____1._____ you like?
Jackie: I like basketball very much. I can play basketball with friends for the whole afternoon.
Sandy: _____2._____ do you like basketball so much?
Jackie: I like it because we can do a lot of things in a basketball game.
Sandy: What do you mean?
Jackie: We can score and we can steal the ball. We can _____3._____ win or lose in the last few seconds.
Sandy: It's exciting.
Jackie: You're right. Everything _____4._____ possible in a basketball game.
Sandy: Do you practice basketball after school?
Jackie: Yes, I do. I am on the school team and I practice after school every day.
Sandy: Don't you worry about your grades?
Jackie: No, _____5._____. I study and prepare for the tests on weekends.
Sandy: You use your time wisely.
Jackie: By the way, I have two tickets _____6._____ a basketball game this Saturday. Let's _____7._____ together.
Sandy: You are so nice. Thanks.

whole 整個　because 因為　exciting 刺激的　wisely 聰明地　by the way 順帶一提

( C ) 1. (A) are　(B) is　(C) do　(D) does
( B ) 2. (A) What　(B) Why　(C) Where　(D) Who
( B ) 3. (A) really　(B) even　(C) too　(D) only
( B ) 4. (A) be　(B) is　(C) are　(D) does
( D ) 5. (A) you don't　(B) I am not　(C) we do　(D) I don't
( C ) 6. (A) in　(B) on　(C) for　(D) at
( A ) 7. (A) go　(B) goes　(C) to go　(D) going

(At Adam's front door)
Amy: Hi, Adam.
Adam: Hey, Amy. What's up?
Amy: My mom is not home at lunch time. __8__ but I don't have any eggs. __9__
Adam: Sure.__10__
Amy: How about three? Let me also make some for you.
Adam: But look at the dining table __11__ on it. It's for my lunch. Maybe you can share it with me.
Amy: __12__ I cannot eat too much. I'm now on a diet.
Adam: You are? You really need to exercise more, too.
Amy: Hahaha!
📖fried rice 炒飯 on a diet 節食 more 多一點

( B ) 8. (A) Mom doesn't like eggs,　(B) I'm going to make fried rice,
(C) I don't like to eat,　(D) Give me a break,
( A ) 9.(A) Do you have some eggs?　(B) Aren't the eggs enough ?
(C) How much are the eggs?　(D) Do you need any for the party?
( D )10.(A) Let me see.　(B) Don't worry. Just go home.
(C) What do you need eggs for?　(D) How many eggs do you need?
( A )11.(A) There's a big yummy pizza　(B) There's a bag of sugar
(C) There are thirty cookies　(D) There are two cans of juice
( B )12. (A) Yes, please.　(B) No, thanks.
(C) What is your mom doing now?　(D) Who are you waiting for?

# 新竹市立育賢國民中學 112 學年度第 2 學期七年級數學科補考題庫

**選擇題 (20 題，每題 5 分，100%)**

( C ) 1. 小金有 x 元，大川有 y 元，根據下列哪一個選項的敘述可列出二元一次方程式 $4x-30=y$？
(A) 小金的錢是大川的 4 倍少 30 元
(B) 小金的錢是大川的 4 倍多 30 元
(C) 大川的錢是小金的 4 倍少 30 元
(D) 大川的錢是小金的 4 倍多 30 元

( D ) 2. 下列何者是二元一次方程式 $3x+y=7$ 和 $x-y=5$ 的共同解？
(A) $\begin{cases} x=1 \\ y=4 \end{cases}$ (B) $\begin{cases} x=2 \\ y=-3 \end{cases}$ (C) $\begin{cases} x=1 \\ y=-4 \end{cases}$ (D) $\begin{cases} x=3 \\ y=-2 \end{cases}$

( A ) 3. 若 $x$、$y$ 皆為正整數，則二元一次方程式 $x+4y=24$ 的解有多少組？
(A) 5 組 (B) 6 組 (C) 7 組 (D) 無限多組

( C ) 4. 友友商店的礦泉水售價分為兩種：大瓶的每箱 200 元，小瓶的每箱 120 元。若共賣出 20 箱，但結帳時店員把兩種售價看反了，結果少收 800 元。設大瓶礦泉水賣出 $x$ 箱，小瓶礦泉水賣出 $y$ 箱，則下列何者為符合題意的二元一次聯立方程式？
(A) $\begin{cases} x-y=20 \\ 200x+100y=800 \end{cases}$
(B) $\begin{cases} x-y=20 \\ 200x+120y-800=120x+200y \end{cases}$
(C) $\begin{cases} x+y=20 \\ 200x+120y-800=120x+200y \end{cases}$
(D) $\begin{cases} x+y=20 \\ 200x+120y+800=120x+200y \end{cases}$

( C ) 5. 用代入消去法解二元一次聯立方程式 $\begin{cases} 3x+4y=2 \cdots\cdots ① \\ 2x-3y=7 \cdots\cdots ② \end{cases}$，整理①式可得 $x=$？
(A) $2-4y$ (B) $(2-4y)\times 3$ (C) $\dfrac{2-4y}{3}$ (D) $\dfrac{4y-2}{3}$

( C ) 6. 下列何者能消去二元一次聯立方程式 $\begin{cases} -3x+4y=1 \cdots\cdots ① \\ 4x-2y=-1 \cdots\cdots ② \end{cases}$ 中的一個未知數？
(A) ①－②×2 (B) ①×3＋②×3
(C) ①＋②×2 (D) ①×4－②×3

( D ) 7. 已知坐標平面上一點 $M(3, -4)$，若從 $M$ 點出發，先向左 5 單位，再向上 4 單位，最後到達 $N$ 點，則 $N$ 點的坐標為何？
(A) $(8, -8)$ (B) $(8, 0)$
(C) $(-2, -8)$ (D) $(-2, 0)$

( *A* ) 8. 在坐標平面上，下列哪一點與 $A(-1,0)$ 相距 4 單位且在 $x$ 軸上？

(A) $(-5,0)$　　(B) $(-1,4)$

(C) $(4,0)$　　(D) $(0,-5)$

( *B* ) 9. 若$(1,a)$、$(-2,b)$、$(c,3)$、$(d,-1)$都在方程式 $y=\frac{1}{2}x+1$ 的圖形上，則下列敘述何者正確？

(A) $a=1$　　(B) $b=0$

(C) $c=3$　　(D) $d=4$

( *B* ) 10. 判斷下列二元一次方程式的圖形，哪一個會通過原點？

(A) $3x+2y=1$　　(B) $\frac{1}{3}y=-2x$

(C) $-x+5y=-3$　　(D) $y=\frac{7}{6}x-2$

( *D* ) 11. 二元一次方程式 $x=3$ 與 $2x+y=1$ 圖形的交點在哪一個象限內？

(A) 第一象限　　(B) 第二象限

(C) 第三象限　　(D) 第四象限

( *D* ) 12. 下列敘述何者<u>錯誤</u>？

(A) 550：700 的比值為 $\frac{11}{14}$

(B) $\frac{2}{3}:\frac{3}{4}$ 和 8：9 的比值相同

(C) 550：1250 的比值比 550：1200 的比值小

(D) 6：8 的比值是 0.6：0.8 比值的 10 倍

( *D* ) 13. 已知 $ad=bc$，$a$、$b$、$c$、$d$ 均不為 0，則下列哪一個性質<u>不一定</u>成立？

(A) $\frac{a}{c}=\frac{b}{d}$　　(B) $a:b=c:d$

(C) $a:c=b:d$　　(D) $a:d=b:c$

( *C* ) 14. 下列敘述何者正確？

(A) 若 $y=2x$ 成立，表示 $x$ 與 $y$ 都是整數，且 $x$ 與 $y$ 成正比

(B) 若 $y=-2x$ 成立，表示 $x$ 與 $y$ 成反比

(C) 若 $y=-\frac{1}{2}x$ 成立，表示 $x$ 與 $y$ 成正比

(D) 若 $x$ 的值愈大，$y$ 的值也隨之愈大，則表示 $x$ 與 $y$ 成正比

( *A* ) 15. 判斷下列敘述哪些正確？

甲 $x:3=y:4$，得 $y$ 與 $x$ 成正比。

乙 $x:3=4:y$，得 $y$ 與 $x$ 成反比。

丙 $(x+\frac{1}{4}):(y+\frac{1}{3})=3:4$，得 $y$ 與 $x$ 既不成正比，也不成反比。

(A) 僅甲、乙　　(B) 僅甲、丙
(C) 僅乙、丙　　(D) 甲、乙、丙

( *A* ) 16.在小於 10 的正整數中，有幾個數是不等式 $2x-3>9$ 的解？
(A) 3 個　　(B) 4 個
(C) 5 個　　(D) 6 個

( *D* ) 17.下列何者是不等式 $3x-15\geq 7$ 的解？
(A) $-5\frac{1}{3}$　　(B) 5
(C) 7　　(D) $10\frac{1}{2}$

( *C* ) 18.若 $a>0>b$，則下列哪一個式子是錯誤的？
(A) $a+3>b+3$
(B) $3a>3b$
(C) $-3a>-3b$
(D) $-3+a>-3+b$

( *B* ) 19.下列是解一元一次不等式「$3-\frac{x-2}{2}>\frac{x+1}{3}+2$」的四個步驟，試判斷哪一個步驟開始發生錯誤
(A) 步驟一：同乘以 6 得 $18-3x+6>2x+2+12$
(B) 步驟二：移項得 $18+6-2-12<2x+3x$
(C) 步驟三：化簡得 $10<5x$
(D) 步驟四：同除以 5 得 $x>2$

( *B* ) 20.蘋果 1 個 20 元，芭樂 1 個 15 元，若兩種水果都買，共買 30 個，總價不超過 500 元，假設蘋果買 $x$ 個，則依題意可列式為何？
(A) $20x+15\times(30-x)\geq 500$
(B) $20x+15\times(30-x)\leq 500$
(C) $20x+15\times(30-x)<500$
(D) $20x+15\times(x-30)\leq 500$

# 新竹市立育賢國民中學 112 學年度第 2 學期七年級自然科　補考題庫

7 年____班 座號：　　姓名：

一、選擇

(　　)1. 下列哪一組生物的生殖方式為卵生，並可分泌乳汁哺育幼兒？(A)無尾熊、袋鼠 (B)鴨嘴獸、針鼴 (C)企鵝、袋鼠 (D)青蛙、蠑螈。

(　　)2. 種子植物能稱霸植物界的主要理由為何？(A)具有維管束 (B)能開花以繁衍後代 (C)根、莖、葉的分化 (D)藉由花粉管行有性生殖。

(　　)3. 阿辰和小峻長期調查某山區的一個擁有 6 隻台灣藍鵲的家族，發現半年後藍鵲媽媽生了 6 顆蛋，全部順利孵化成功後，有 4 隻飛走，一個月後有 1 隻不幸死亡，請問此藍鵲家族現在狀況為何？(A)屬於 7 個群集 (B)族群數量減少 (C)族群數量增加 (D)超出該地區負荷量。

(　　)4. 喬喬將脊椎動物依其不同的特性分類如【表一】，請問下列檢索表中的配對何者**錯誤**？(A)甲－針鼴 (B)乙－企鵝 (C)丙－山椒魚 (D)丁－袋鼠。

【表一】

- 卵生
  - 體外受精——面天樹蛙
  - 體內受精
    - 哺乳——甲
    - 不哺乳—乙
- 非卵生
  - 用鰓呼吸——孔雀魚
  - 用肺呼吸
    - 水中生活——丙
    - 陸地生活——丁

【圖一】

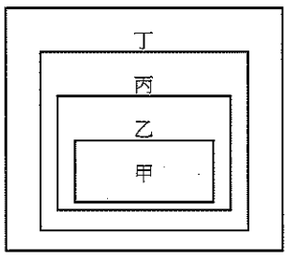


(　　)5. 【圖一】代表生物圈組成的層次，下列何者**正確**？(A)甲是生態系 (B)乙是族群 (C)丙是個體 (D)丁是群集。

(　　)6. 下列何項特徵，對於鳥類的飛行並**沒有**直接的幫助？(A)千變萬化的嘴型 (B)肺延伸出許多氣囊 (C)骨骼中空，可以減輕體重 (D)前肢有羽毛。

(　　)7. 下列何者屬於『群集』？(A)中央山脈的臺灣黑熊 (B)曾文溪口的黑面琵鷺 (C)玉山國家公園中的針闊葉混生林 (D)淡水河口紅樹林中的水筆仔。

(　　)8. 下列各種陸域生態系與其特性的配合，何者**錯誤**？ (A)生物種類最多— 熱帶雨林生態系 (B)動物跟著雨水來源而遷徙— 草原生態系 (C)植物根系淺而廣— 沙漠生態系 (D)日夜溫差大 — 凍原生態系。

(　　)9. 關於生物多樣性面臨的危機，學者稱為 HIPPO 困境，請問下列敘述何者錯誤？(A)人為不當開發影響石虎棲地 (B)燃燒塑膠產生致癌的戴奧辛 (C)以化石燃料取代太陽能源 (D)過度捕撈海洋資源導致海洋生物滅絕。

(　　)10. 小名以捉放法調查十八尖山的山鼠數量，首先捕捉 40 隻山鼠，作好記號後再野放回樣區中，兩星期後再捕捉山鼠 100 隻，其中有作記號的山鼠有 25 隻，請問此樣區中山鼠總共約有多少隻？ (A) 100 隻 (B) 160 隻 (C) 200 隻 (D) 250 隻。

(　　)11. 大理和冠冠搭乘阿里山小火車，順著阿里山森林鐵路慢慢上山，除了體驗登山鐵道的四大特殊工法外，亦可同時欣賞沿途熱、暖、溫三帶的林相變化，如【圖二】：**熱帶林段的景觀多以芒果樹、芭樂樹等闊葉樹種為主**，通過熱帶暖帶分隔線之後，取代的是**樟樹、台灣肖楠、楓樹等暖帶落葉植物**，到了副熱帶林和溫帶林的界限（海拔 1800 公尺），自此而上的林木有**紅檜、柳杉、台灣二葉松...等針葉樹**，高聳參天、林蔭蔽日，真是十分優美浪漫的一段鐵路...。請問**從山下往山上**沿途植物種類變化下列何者正確？ (A)被子植物→裸子植物 (B)種子植物→孢子植物 (C)單子葉植物→雙子葉植物 (D)無維管束植物→維管束植物。

【圖二】

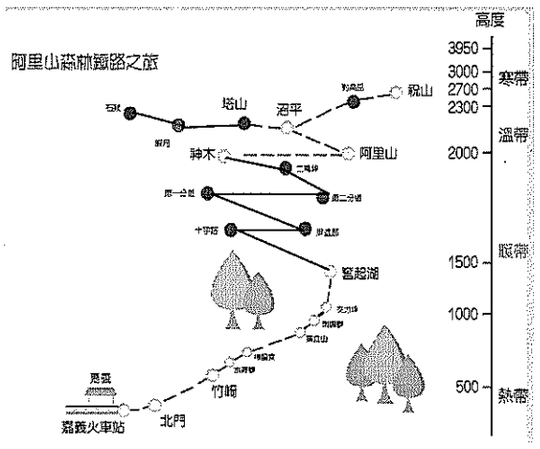


【圖三】

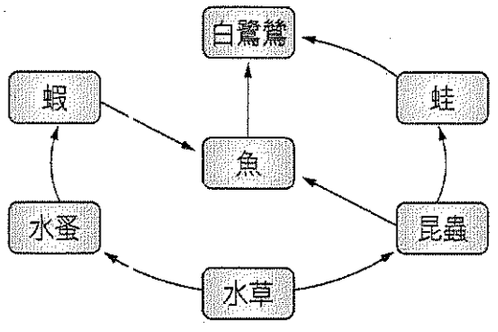


(　　)12. 位在育賢國中前客雅溪生態系的食物網如【圖三】，若溪水受到汞金屬汙染，則下列四類生物體內，何者所含的汞金屬濃度可能最高？(A)水草 (B)魚 (C)白鷺鷥 (D)蝦。

(　　)13. 承上題，這是什麼現象？ (A)呼吸作用 (B)排泄作用 (C)光合作用 (D)生物放大作用。

(　　)14. 【圖四】為碳循環示意圖，下列敘述何者**正確**？ (A)甲是碳元素藉由呼吸作用返回大氣 (B)丙是指碳元素經由光合作用進入生物體內 (C)乙是指細菌藉由燃燒作用將碳元素排入大氣 (D)丁是指生物藉由擴散作用將碳元素返回大氣裡。

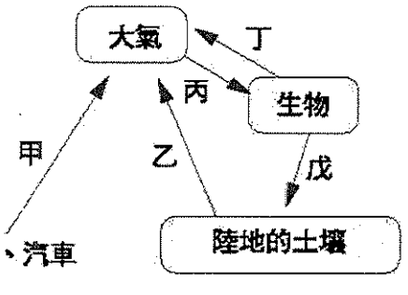


【圖四】

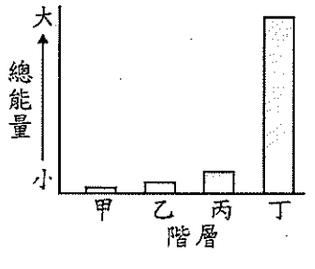


【圖五】

(　　)15. 將某一食物鏈中生產者及不同階層的消費者所含之總能量繪製成圖，如【圖五】所示。已知此食物鏈中有一種僅以種子為食的鳥類，則此種鳥類應屬於下列哪一階層？(A)甲 (B)乙 (C)丙 (D)丁。

(　　)16. 承上題，若將此食物鏈中各階層生物所含能量，依序往上堆積，形成的能量塔形狀為何？

(A) (B) 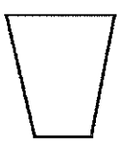 (C)  (D)  。

(　　)17. 育賢農場飼養豬隻總數有 20000 頭(平均為 200 區飼養)，因口蹄疫流行，急需疫苗為健康豬注射，阿修今天隨機選 3 區檢視，結果發現病豬分別為 7、7、10 頭，請估計病豬數約為多少頭以方便準備所需疫苗數量？(A) 1470 (B) 1600 (C) 2400 (D) 4800。

(　　)18. 當阿新和大勛到墾丁海邊遊玩時發現一隻**寄居蟹背著瓶蓋**爬行如【圖六】，試問這是何種環境汙染造成？ (A)空氣汙染 (B)固體廢棄物汙染 (C)噪音汙染 (D)水汙染。



【圖六】

(　　)19. 農夫種植牧草、蜜蜂採花蜜生產蜂蜜、乳牛吃草生產牛乳供人類喝，試問農夫、蜜蜂和乳牛在生物圈中扮演何種角色？ (A)生產者 (B)消費者 (C)分解者 (D)清除者。

(　　)20. 下列關於裸子植物的敘述，何者正確？(A)蘇鐵會開花 (B)松子是松樹的果實 (C)臺灣杉的雌毬果內有胚珠，成熟後會隨風落在花粉粒上，受精發育成種子 (D)柏樹的毬果有雌雄之分，雌毬果較大。

三、題組

(一)小董和小賴在校園中觀察一些生物的特徵後，利用所學知識完成了《表二》，試以此表回答第 21~23 題：

- 沒有維管束
  - 沒有葉綠素……甲
  - 有葉綠素……乙
- 有維管束
  - 用孢子繁殖……丙
  - 用種子繁殖
    - 具毬果……丁
    - 會開花
      - 葉脈平行……戊
      - 葉脈網狀……己

《表二》

【圖七】

(　　)21. 生物甲可能為哪一類生物？(A)地錢 (B)藍菌 (C)地衣 (D)蚯蚓。

(　　)22.《表二》中哪一些生物具有花粉管？(A)甲乙丙 (B)甲戊己 (C)乙丙丁 (D)丁戊己。

(　　)23. 仔細觀察在實驗室前楓香樹如【圖七】，應該為《表一》中的何種生物？(A)己 (B)戊 (C)丙 (D)乙。

(二) 有一天小小兵們來到**撒哈拉沙漠**進行生態調查發現有仙人掌、黴菌、蠍子、蜥蜴、跳鼠、蛇、駱駝等等，並且觀察其食性關係製作了【圖八】的食物網，但是小小兵卻一時忘記代號（甲～己）中的生物真實名稱。試回答第24~27題：



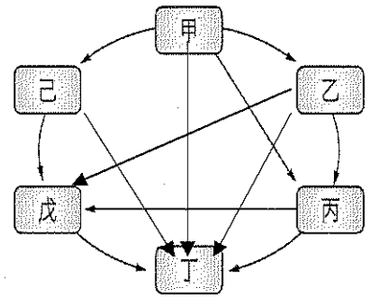

【圖八】

(　　)24. 撒哈拉刺尾蜥是屬於**雜食性**的動物，則牠可能是? (A)甲 (B)乙 (C)丙 (D)戊。

(　　)25. 此食物網中的分解者是? (A)甲 (B)乙 (C)丁 (D)戊。

(　　)26. 請問這些生物中數量最多的應該是? (A)甲 (B)乙 (C)丙 (D)戊。

(　　)27. 請問適合沙漠地區的生物應該具有何種特色? (A)肥厚的脂肪和濃密的長毛 (B)根系淺且廣、針狀葉 (C)具有濕潤的皮膚 (D)鮮豔的體色。

(三) 民國 98 年 10 月 15 日，行政院正式公告，宣布「台江國家公園」為臺灣第 8 座國家公園。台江國家公園位於臺灣本島西南部，最大特色為海埔地，其中曾文溪口和四草為國際級溼地……；請回答第 28~31 題：

(　　)28. 請問這些溼地屬於哪一種水域生態系? (A)淡水生態系靜水水域 (B)河口生態系 (C)海洋生態系淺海區 (D)海洋生態系大洋區。

(　　)29. 關於此生態系特色的敘述，下列何者錯誤？(A)環境中所含的養分並不豐富 (B)環境中的溫度與鹽度變化大 (C)此環境生產者的種類不多 (D)招潮蟹、彈塗魚、高蹺鴴為代表性的消費者。

(　　)30. 若在曾文溪口溼地上發現有毒物質的殘餘量0.0007 ppm，而其中四種族群其生物體內所含有毒物質的濃度如《表三》，請寫出其**食物鏈**為何？(A)甲→乙→丙→丁 (B)乙→甲→丁→丙 (C)丙→丁→甲→乙 (D)丁→丙→甲→乙。

《表三》

| 生物種類 | 濃度(ppm) |
|---|---|
| 甲 | 1.200~2.600 |
| 乙 | 5.540~7.760 |
| 丙 | 0.005~0.030 |
| 丁 | 0.750~0.900 |
| 註 1：甲、乙、丙、丁皆非分解者 | |

(　　)31. 為落實保育工作，臺灣政府已制定文化資產保存法、野生動物保育法等，對於曾文溪口是許多重要候鳥的棲息地，也極力維護，此做法合乎何種公約的精神？(A)華盛頓公約 (B)拉姆薩公約 (C)生物多樣性公約 (D)京都議定書。

(四) 閱讀下面文章，並回答第 32~36 題：

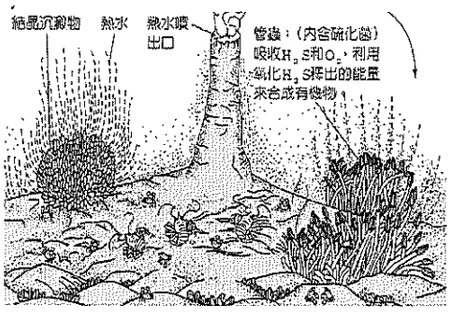


在一九七九年以前，許多科學家都認為深海海底是永恆的黑暗、寒冷及寧靜，不可能有所謂的生命。但是一九七九年，科學家首次在 2,700 公尺的海底發現熱泉…；海底熱泉是指海底噴泉，原理和火山噴泉類似，…在宜蘭龜山島所發現不斷往上噴出的海底熱泉，是一種黃煙囪。

在深海熱泉泉口附近均會發現各式各樣前所未見的奇異生物，包括大得出奇的紅蛤、海蟹、血紅色的管蟲(與蚯蚓同一門)、牡蠣、貽貝、螃蟹、小蝦，還有一些形狀類似蒲公英的水螅生物。即使在熱泉區以外像荒蕪沙漠的深海海底，仍出現了海星及海葵這些生物。

熱泉生物能夠生存完全是依靠初級生產者的硫化細菌聚集，產生能量及有機物質，形成「化學自營」現象。這類細菌會吸引一些濾食生物，或者是形成能與細菌共生的無脊椎動物共生體，以氧化硫化氫為營生來源，一個以「化學自營細菌」為初級生產者的生態系便形成了。　　~~ 摘自《科學發展》2004 年 7 月

(　　)32. 「潮間帶中的藻類」相當於是此生態系中的哪一種生物？(A)海葵 (B)水螅 (C)硫化細菌 (D)紅蛤。

(　　)33. 此生態系中**並未出現**何種動物門的生物？ (A)脊索動物門 (B)環節動物門 (C)節肢動物門 (D)棘皮動物門。

(　　)34. 當有些無脊椎動物與硫化菌形成共生體，與下列生物間互動關係最相似？(A)寄生蜂與蛾類幼蟲 (B)藻類與真菌 (C)鴨子與福壽螺 (D)翠鳥與小魚。。

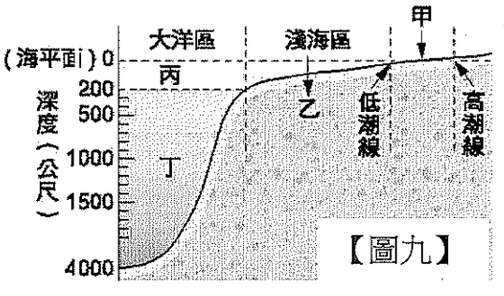

【圖九】

(　　)35. 海洋生態系各區域示意圖如【圖九】，則熱泉生態系所在位置為何？(A)甲 (B)乙 (C)丙 (D)丁

(　　)36. 根據【圖九】，下列敘述何者正確？ (A)甲區可發現藤壺、石蓴 (B)乙區的主要生產者為珊瑚 (C)丙稱為透光區，可發現昆布等大型藻類 (D)丁區可直接獲得太陽的能量。

(五) 閱讀下面文章，並回答第 37~40 題：

蝙蝠是唯一會飛的哺乳類動物，為什麼在夜間活動、覓食？因蝙蝠的皮膚缺乏汗腺較難適應白天高溫以及在夜間可獲得大量的食物如昆蟲……。其實，絕大多數的蝙蝠都是以昆蟲、果實與花粉為食物，僅 3 種吸血蝙蝠以溫血動物的血液為生。台灣位在熱帶與亞熱帶的交會處，目前有八十多種陸生哺乳類野生動物生活在這島嶼上，以蝙蝠的種數最多，已發現了 36 種，其中約半數是台灣的特有種。所謂臺灣特有的野生動物，是指在世界上僅生存於臺灣的獨特物種，若一旦滅絕，將永遠在地球上消失。

其中台灣狐蝠是台灣最大型的蝙蝠，體長約 20 公分，雙翼展開可達一公尺。牠們黃昏開始外飛活動覓食，以植物的果實為食，藉由覓食後排出的大便幫助傳播植物的種子。……當我們與世界上許多國家比較時發現，台灣蝙蝠的種數超過英國許多，而與日本相當。以單位面積所擁有的蝙蝠種數論，台灣的比值是野生動物相當豐富的泰國的 4.6 倍、日本的 10 倍、澳洲的 103 倍、美國的 208 倍。生物多樣性的意義日漸受到人們重視，因為各種生物必須相互依賴才能延續生命。為數眾多的蝙蝠是台灣生態系中的一分子，需要大家共同維護。 【摘自《科學發展》2016 年 10 月號】

(　　)37. 關於臺灣生態和蝙蝠的敘述下列何者**錯誤**？(A)臺灣特有的蝙蝠一旦滅絕，無法在其他國家找到同種動物 (B)臺灣蝙蝠大多是以溫血動物的血液為生 (C)臺灣蝙蝠種數密度比日本高 (D)台灣狐蝠雖以植物果實為食，卻也幫忙傳播植物種子，算是一種共生關係。

(　　)38. 下列關於蝙蝠的敘述何者**正確**？(A)會流汗來調解體溫 (B)在夜間活動、覓食是因為眼睛怕光 (C)為臺灣陸生哺乳類野生動物中種類最多 (D)唯一會飛的內溫動物。

(　　)39. 關於生物多樣性的敘述，其中哪一項觀點是**正確**？(A)引入布袋蓮、牛蛙等外來種可以更加豐富臺灣的物種多樣性 (B)臺灣面積小、多高山，生態系種類少 (C)當湖泊和河川產生優養化的現象代表生態平衡、保育成功 (D)斯文豪氏赤蛙有不同體色是屬於遺傳多樣性，適應環境的能力愈高。

(　　)40. 過去臺灣有許多野生動、植物，目前已逐漸消失，最主要的原因可能是下列何者？ (A)許多物種發生突變 (B)外來種生物逐漸減少 (C)設立野生動物保護區 (D)人為的開發及破壞環境。

【解答】

| | | | | | | | | | |
|---|---|---|---|---|---|---|---|---|---|
| 1 | B | 2 | D | 3 | C | 4 | C | 5 | B |
| 6 | A | 7 | C | 8 | D | 9 | C | 10 | B |
| 11 | A | 12 | C | 13 | D | 14 | B | 15 | C |
| 16 | A | 17 | B | 18 | B | 19 | B | 20 | D |
| 21 | D | 22 | D | 23 | A | 24 | C | 25 | C |
| 26 | A | 27 | B | 28 | B | 29 | A | 30 | C |
| 31 | B | 32 | C | 33 | A | 34 | B | 35 | D |
| 36 | A | 37 | B | 38 | C | 39 | D | 40 | D |

# 新竹市立育賢國民中學　112學年度第二學期　七年級地理科補考題庫

__年__班　座號：____　姓名：_____

**單選題（共40題）**

1.(　)臺灣各階段的主要產業類別如附圖所示，根據圖中資料判斷，下列有關產業發展的敘述何者最為正確？

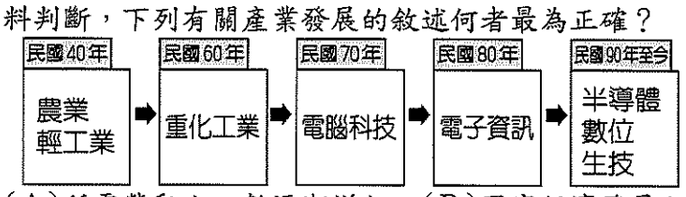


(A)所需勞動人口數逐漸增加　(B)國家經濟發展程度下降　(C)產品附加價值愈來愈低　(D)產業發展由需大量低廉勞工轉向資本密集度高。

2.(　)人口移動可以分成「拉力」和「推力」兩種。下列哪一項因素是促使東南亞民眾願意遠離家鄉來到臺灣的「拉力」？　(A)經濟發達　(B)礦產豐富　(C)平原廣大　(D)氣候優良。

3.(　)清領初期，清廷曾頒布渡臺禁令，其部分內容如附圖所示。請問：這項政策實施後，對於當時臺灣的哪一項人口要素的影響最大？

> 壹、要欲渡海來臺者，先給原籍地方照單，經分巡臺廈兵備道稽查，依臺灣海防同知審驗批准，偷渡者將會受到嚴懲。
>
> 貳、渡臺者不准攜帶妻兒家眷。

(A)社會增加率　(B)自然增加率　(C)人口死亡率　(D)人口出生率。

4.(　)以臺灣現今情況分析，下列何種產業較適合移往東南亞工資較低廉的國家？　(A)電子資訊業　(B)成衣製造業　(C)鋼鐵工業　(D)石化工業。

5.(　)附圖為2010年臺灣本島各縣市社會增加率類型的分布圖，下列用來說明圖中分布狀況的原因何者正確？

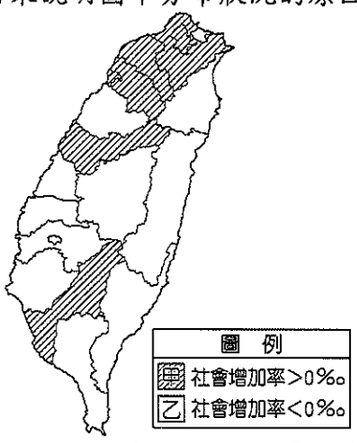


(A)甲類型的推力大於拉力，因物價水準較高
(B)甲類型的拉力大於推力，因就業機會較多
(C)乙類型的推力大於拉力，因工業汙染嚴重
(D)乙類型的拉力大於推力，因社會福利完善。

6.(　)多元文化來自於不同族群的生活特色，附圖為臺灣某時期的人口移動示意圖，由圖判斷，會帶來哪些族群的文化特色？

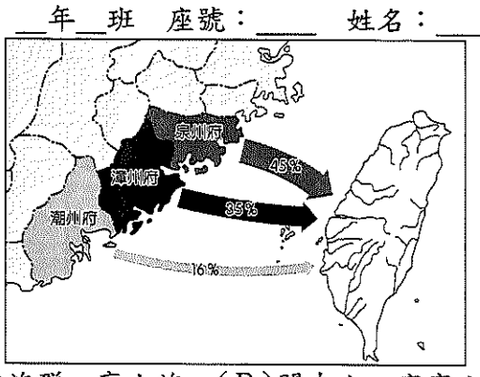


(A)平埔族群、高山族　(B)閩南人、客家人
(C)新住民、日本人　(D)原住民族、平埔族群。

7.(　)附圖為創造臺灣經濟奇蹟的工業活動景象，請由圖中資訊判斷，其投入條件以下列何者為主？

(A)眾多資金　(B)豐富原料　(C)密集勞力
(D)先進技術。

8.(　)聚落依發展過程而分為都市聚落及鄉村聚落，兩者關係相當密切。請問：一般鄉村聚落提供給都市聚落的主要功能中，不包括下列何者？　(A)農牧產品
(B)時尚購物　(C)休閒旅遊　(D)純淨環境。

9.(　)有一句電視汽車廣告詞說：「一臺車『凸』全臺灣。」畫面上的車子馳騁於大街小巷及山野林徑間。這句話最可能用來形容公路運輸的哪一項特性？(A)載貨量較小　(B)機動性較強　(C)長途運費高　(D)修築成本低。

10.(　)臺灣在興建鐵路的過程中，以下列哪一因素對工程困難度的影響最明顯？　(A)降水量多寡　(B)地形起伏　(C)距離長短　(D)地質土壤。

11.(　)各地方政府近年來興建許多都會公園，希望提供人口密度較高的地區休閒遊憩的場所，以提升人們生活水準。請問：此政策對於下列哪一個區域較不適合？
(A)北部區域　(B)中部區域　(C)南部區域
(D)東部區域。

12.(　)近年來，臺灣一些需要較多勞力的工業，如鞋類、成衣等工廠多移往東南亞，此現象與當地具備何種優勢條件最為相關？　(A)工資較低廉　(B)原料較豐富
(C)交通較便利　(D)動力較充足。

13.(　)附圖為我國某人口政策的宣導圖片，請問：該政策主要目的為下列何者？

(A)減少性別不均　(B)增加人口拉力　(C)提高人口素質　(D)提高自然增加率。

14. (　) 臺灣被譽為美食王國，各式各樣的飲食文化成為吸引外國觀光客的重要誘因。附圖為某餐飲店招牌，反映出下列哪一個族群的文化特色？

(A)原住民族　(B)閩南人　(C)新住民　(D)客家人。

15. (　) 附圖為某國 1980 年與 1990 年人口年齡分布資料的重疊比較圖。由圖中內容判斷，相較於 1980 年，下列關於該國 1990 年人口變化的敘述何者正確？

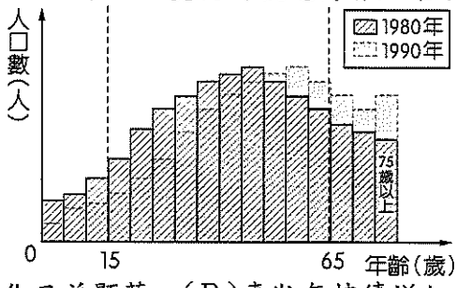


(A)高齡化日益顯著　(B)青壯年持續增加　(C)少子化日漸趨緩　(D)扶養比逐漸變小。

16. (　) 畜牧方式因地理環境不同而異。依臺灣的環境條件而言，其畜牧大都屬於何種方式？　(A)游牧　(B)山牧季移　(C)欄牧　(D)放牧。

17. (　) 「2009 年侵襲臺灣的莫拉克颱風帶來驚人雨量，隨著豪雨沖刷下來的漂流木，布滿東海岸的海域，導致臺東許多漁港暫時關閉；部分漂流木更順著洋流流動到其他國家附近的海域，影響其海上作業船隻的安全。」根據臺灣附近洋流流向判斷，這些漂流木最可能會流動到哪個地區附近的海域？　(A)中國海南島　(B)印尼爪哇島　(C)日本琉球群島　(D)菲律賓呂宋島。

18. (　) 臺灣的人口分布主要反映出當地的地理環境特色。根據附圖中的人口分布判斷，哪一區域的人口最為密集？

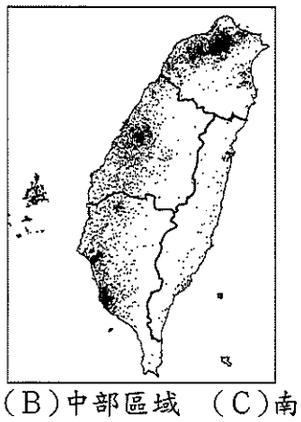

(A)北部區域　(B)中部區域　(C)南部區域　(D)東部區域。

19. (　) 東部區域就業人口比例以第三級產業特別發達，甚至超過了農、工業活動。請問：東部區域第三級產業活動類別主要為下列何者？　(A)商業　(B)金融業　(C)教育業　(D)觀光業。

20. (　) 臺灣某縣市的產業人口結構如附圖所示。請問：該地區最可能是哪一個縣市？

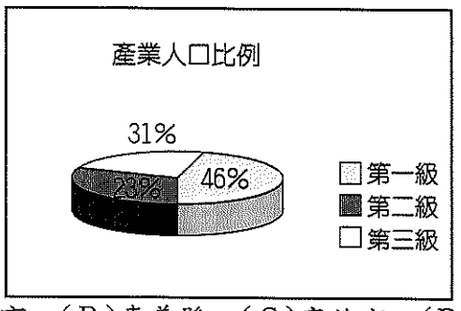


(A)臺北市　(B)嘉義縣　(C)高雄市　(D)新北市。

21. (　) 產業結構的變遷反映出一國的經濟發展，附圖為星星國三個不同階段的產業結構圖，若依其發展順序，應該為下列何者？

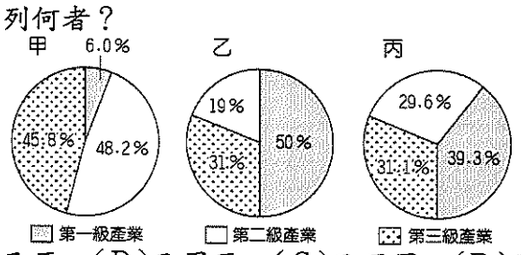


(A)甲乙丙　(B)乙甲丙　(C)乙丙甲　(D)甲丙乙。

22. (　) 陶淵明〈歸園田居〉詩中：「種豆南山下，草盛豆苗稀。晨興理荒穢，帶月荷鋤歸。」這種清晨下田鬆土除草，星月下才扛著鋤頭回家歇息的田園生活，恰可以形容臺灣農業經營的哪一種特色？　(A)耕地狹小　(B)技術先進　(C)集約度高　(D)休閒產業興起。

23. (　) 中國遊客到臺灣某區域旅行時，導遊介紹這裡是臺灣本島人口最少的區域，族群有原住民族、閩南、客家、新住民等，各族群人數比例接近，文化呈現多元特色。請問：此區域應為附圖中何處？

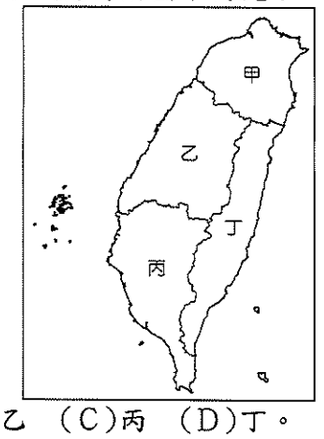


(A)甲　(B)乙　(C)丙　(D)丁。

24. (　) 星際國總人口數約為 1,000 萬人，而 2015 年的人口變化如附圖所示，請問：星際國在 2015 年的人口增加率為何？

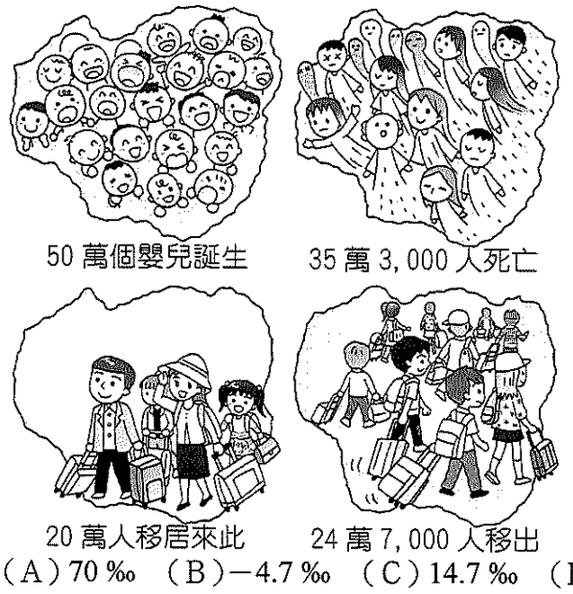


(A) 70 ‰　(B) −4.7 ‰　(C) 14.7 ‰　(D) 10 ‰。

25. (　) 下列為四種不同的工作型態。請問：哪一種工作屬於第二級產業？

(A)

(B)

(C)

(D)

26. (　) 臺灣在民國 50 年代時，主要以輕工業為主。當時主要利用臺灣何項較為優越的區位條件來加以發展？
(A)技術進步　(B)原料充足　(C)工資低廉
(D)市場廣大。

27. (　) 美國的威廉在 2017 年 8 月來臺灣參加世大運，賽事結束後希望到臺灣各地自助旅行，由於語言上的障礙，因此希望選擇有捷運系統的都市較方便。請問：下列哪一個都市目前較不適合威廉前往？　(A)新北市　(B)臺南市　(C)高雄市　(D)桃園市。

28. (　) 蔬果、花卉等園藝作物，由於保鮮期短，為防止腐爛的情況發生，因此集散中心必須位於交通中樞。由此推論，臺灣本島蔬果、花卉等農產品的產銷中心位於附圖中哪一個區域？

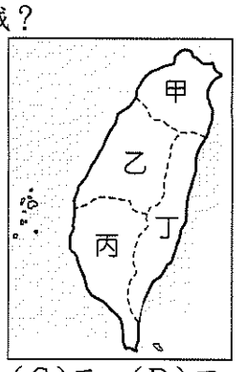


(A)甲　(B)乙　(C)丙　(D)丁。

29. (　) 宜蘭自從蔣渭水高速公路完工後，因為便捷的交通，吸引許多人前往度假，為當地觀光業的發展帶來龐大的收益。請問：該縣市位於臺灣哪一個區域中？
(A)北部區域　(B)中部區域　(C)南部區域
(D)東部區域。

30. (　) 政府相關部門欲調查臺灣重工業的發展狀況，以作為政府產業發展政策的制定依據。請問：該單位相關人員應前往下列何處工業區進行訪查？　(A)雲林六輕石化工業區　(B)高雄臨海加工出口區　(C)臺南永康統一食品廠　(D)新竹市台積電晶圓廠。

31. (　) 臺灣的都市結構以「住商合一」為主，通常商業活動密集的地區人口較多。下圖為某地區的平面示意圖，根據上述判斷，圖中何處人口密度可能最高？

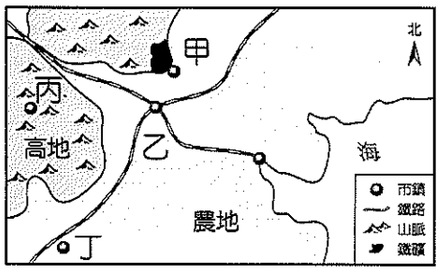


(A)甲　(B)乙　(C)丙　(D)丁。

32. (　) 附圖為臺灣各鄉鎮地區的人口分布密度圖，請由圖中資料判斷，下列有關臺灣西部和東部區域的敘述，何者最正確？

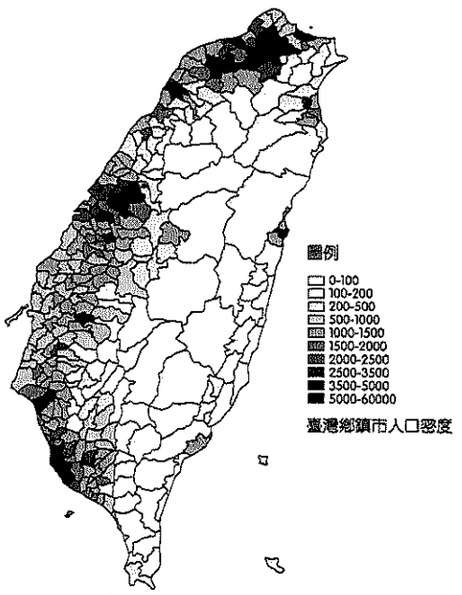


(A)西部生活空間較小　(B)西部扶養比較高
(C)東部幼年人口比例高　(D)東部性別比大於 100。

33. (　) 臺灣國道的編號原則：縱向是以奇數編號，橫向是以偶數編號。附表是臺灣國道通車里程統計一覽表，其中有二條國道特別長的原因，與下列哪一臺灣環境特色的關係最為密切？

| 國道編號 | 長度（公里） |
|---|---|
| 1 | 372.7 |
| 2 | 20.4 |
| 3 | 431.5 |
| 4 | 17.1 |
| 5 | 54.3 |
| 6 | 37.6 |
| 8 | 15.5 |
| 10 | 33.8 |

(A)國土南北狹長　(B)河川多東西向　(C)西部平原廣闊　(D)山脈地勢高聳。

34. (　) 附圖為民國 105 年臺灣主要的經貿夥伴及其進、出口貿易值比例圖。由圖中可看出臺灣對何地貿易的入超情形最嚴重？

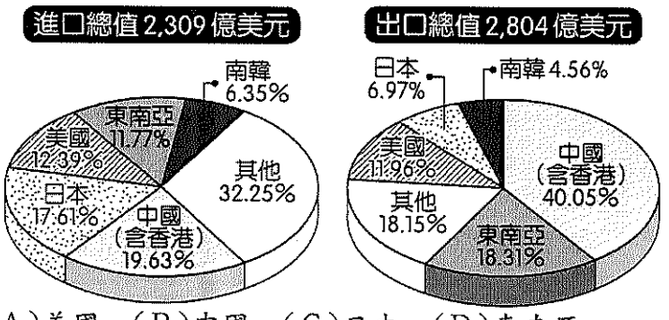


(A)美國　(B)中國　(C)日本　(D)東南亞。

35. (　) 人口金字塔圖結構變化易受到社會經濟發展的影響，經濟狀況較佳的已開發國家，經常出現何種人口組成現象？(A)幼年比例上升、老年比例上升　(B)幼年比例上升、老年比例下降　(C)幼年比例下降、老年比例上升　(D)幼年比例下降、老年比例下降。

36. (　) 臺灣國際貿易活動相當發達，請問：我國對於國際貿易依賴程度甚高，其原因與下列哪些因素有關？
(甲)自然礦產資源缺乏 (乙)疆域狹長面積太小
(丙)地勢起伏山多田少 (丁)國內消費市場有限
(A)甲乙　(B)丙丁　(C)甲丁　(D)乙丙。

37. (　　) 各種交通工具的特性不同，適合的用途也不一樣。一般常見的陸地運輸方式分為鐵路及公路，請問：附表有關其特性之比較中，何者錯誤？

| 運輸方式 | 運費 | 適運距離 | 路線興建成本 | 便利性 |
|---|---|---|---|---|
| 鐵路 | 較低 | 長程運輸 | 較高 | 較高 |
| 公路 | 較高 | 短程運輸 | 較低 | 較低 |

(A)運費　(B)適運距離　(C)路線興建成本　(D)便利性。

38. (　　) 若想要體驗多元的族群文化，優良的自然環境，造訪無毒、有機的精緻農業與慢活的觀光業，應該要前往右圖哪個區域？

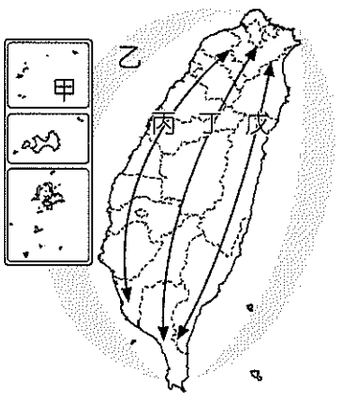


(A)甲　(B)乙　(C)丙　(D)戊。

39. (　　) 2024 年 4 月 3 日，花蓮發生地震規模 7.2 級地震，造成嚴重死傷、建物倒塌、多處交通中斷。其中，位於花蓮的□國家公園，災情慘重，需要長時間進行復健工作。請問:文中□所指的是哪個國家公園?
(A)雪霸　(B)玉山　(C)陽明山　(D)太魯閣。

40. (　　) 下表是四個地區的三級產業比值。請問：四地中，哪一地的都市化程度最高，生活機能最完善?

| | 甲 | 乙 | 丙 | 丁 |
|---|---|---|---|---|
| **第一級** | 80 % | 50 % | 45 % | 10 % |
| **第二級** | 15 % | 25 % | 30 % | 20 % |
| **第三級** | 5 % | 25 % | 25 % | 70 % |

(A)甲　(B)乙　(C)丙　(D)丁。。

**新竹市立育賢國民中學　112 學年度第二學期**
**七年級地理科補考題庫解答**

| 1 | 2 | 3 | 4 | 5 | 6 | 7 | 8 | 9 | 10 |
|---|---|---|---|---|---|---|---|---|---|
| **D** | **A** | **A** | **B** | **B** | **B** | **C** | **B** | **B** | **B** |
| 11 | 12 | 13 | 14 | 15 | 16 | 17 | 18 | 19 | 20 |
| **D** | **A** | **D** | **C** | **A** | **C** | **C** | **A** | **D** | **B** |
| 21 | 22 | 23 | 24 | 25 | 26 | 27 | 28 | 29 | 30 |
| **C** | **C** | **D** | **D** | **D** | **C** | **B** | **B** | **A** | **A** |
| 31 | 32 | 33 | 34 | 35 | 36 | 37 | 38 | 39 | 40 |
| **B** | **A** | **A** | **C** | **C** | **C** | **D** | **D** | **D** | **D** |

# 新竹市立育賢國民中學112學年度第二學期 七年級 歷史科 補考**題庫**

班級:　　座號:　　姓名:

一、單題

1. (D) 1947年，寡婦林江邁在天馬茶房前遭查緝私菸人員以槍托敲打頭部，導致血流如注，而後另一查緝員開槍示警，卻擊傷一位市民，引起群眾激憤，多起衝突陸續爆發。請問：以上敘述是在描寫哪個事件的導火線？ (A)西來庵事件 (B)戒嚴事件 (C)霧社事件 (D)二二八事件。
2. (D) 電影《賽德克．巴萊》取材自臺灣史上的重要事件，內容介紹寫著：「只有臉上有刺紋的人才能結婚、擁有後代，死後也才能通過彩虹橋去見祖靈。賽德克男子必須『出草』獵回人頭、女人必須讓部落長老認同她的織布技術才能紋面，成為一個真正的『賽德克．巴萊』，然而這樣重要的文化傳承卻在日本人來了之後被禁止了。……當他們無法在自己的家園上抬頭挺胸，賽德克族偉大的領袖莫那魯道終於發出怒吼！」請問：上述應是根據哪一抗日事件而改寫？ (A)郭懷一事件 (B)牡丹社事件 (C)噍吧哖事件 (D)霧社事件。
3. (B) 臺灣史上的「白色恐怖」，是指下列哪一個時期政府對臺灣人民人權及自由的戕害？ (A)日本殖民統治時期 (B)戒嚴時期 (C)解除戒嚴後 (D)政黨輪替後。
4. (C) 有一段文字提到日治時期某一種人的行為：「除施行高壓、打罵慓悍，他們大多負責盡職，是塑造威嚴的另一大原因。他們人數不多，兩三個，但天天梭巡，對地方上大小事與人，都瞭若指掌。在鄉村，其地位還在地方名士之上，被稱作『大人』。」根據上文，這是指下列何人？ (A)天皇 (B)總督 (C)警察 (D)保正。
5. (B) 1919年，臺灣有識之士受到民族自決思潮的鼓舞，民族意識逐漸覺醒，透過各種方式展開政治社會運動，表達不願受外族統治、殖民或併吞的信念。此時期臺灣的政治社會運動，是針對哪一外族的殖民統治？ (A)荷蘭 (B)日本 (C)美國 (D)西班牙。
6. (C) 早期臺灣南北交通以海運為主，直至基隆到高雄的西部縱貫鐵路全線通車，陸上交通才得以暢通。請問：這段鐵路在何時完成全線通車？ (A)清帝國早期 (B)清帝國晚期 (C)日治時期 (D)中華民國在臺灣時期。
7. (C) 《臺灣醫療史》記載某一時期的特色如下：「傳統臺灣醫生的社會地位並不高，新醫學提高了臺灣醫生的社會地位，不少臺籍醫師取得較高的社會地位之後，轉而積極參加抗議政府的活動。」請問：這是指下列哪一時期？ (A)荷治時期 (B)清帝國晚期 (C)日治時期 (D)戰後初期。
8. (D) 阿慧是臺灣人，後來改名為「慧子」。她的家庭因為響應政府的國語政策而獲頒證書。另外，有節日時，她也會穿著和服到附近的神社參拜。不久後，她的哥哥被政府徵召入伍，派往東南亞。從文中可知，當時政府正在臺灣施行何種統治政策？ (A)六三法 (B)殖民地特殊統治 (C)內地延長主義 (D)皇民化運動。
9. (A) 1945年8月，日本裕仁天皇裁決投降，國民政府隨即在臺灣成立臺灣省行政長官公署。請問：國民政府指派何人擔任行政長官兼警備總司令，代表國民政府入臺接管？ (A)陳儀 (B)陳誠 (C)雷震 (D)蔣中正。
10. (D) 近二、三十年來，我國政府以經濟實力為後盾，積極爭取參與國際組織與活動的機會，並派遣各種技術團隊協助友邦。我國政府此舉的用意為何？ (A)解決世界饑荒問題 (B)限制中共外交發展 (C)增加我國糧食產量 (D)拓展我國外交關係。
11. (A) 「1912年，磯永吉博士奉命來臺，將臺灣米與日本米配種實驗，耗費多年而創造出新品種『臺灣蓬萊米』，氣味可口遠勝『在來米』，而且使臺灣稻米的輸日數量因而激增。」文中所述臺灣米的革新，應與當時政府的哪一政策有關？ (A)農業臺灣 (B)農業南洋 (C)工業臺灣 (D)南進政策。
12. (A) 「1958年，金門遭炮擊數萬發，美國總統艾森豪下令將地中海第六艦隊調遣一半到臺灣海峽，與第七艦隊會合，加上從本國和菲律賓調來的，美軍在臺灣海峽就有航空母艦7艘、重巡洋艦3艘、驅逐艦40艘。」請問：當時臺灣海峽發生戰爭危機，美方協防臺灣有何法源依據？ (A)《中美共同防禦條約》 (B)《聯合國憲章》 (C)《臺灣關係法》 (D)《中美建交公報》。
13. (C) 臺灣史上有一份重要文書的內容：「第二十六屆大會違反《憲章》規定，通過阿爾巴尼亞等附和匪國家之提案，牽引毛共匪幫竊取中華民國在□中的席位；我們本著漢賊不兩立之立場及維護《憲章》之尊嚴，已在該案支付表決之前，宣布退出……。」上文缺空內的組織應該是指下列何者？ (A)亞太經濟合作會議 (B)東南亞國家協會 (C)聯合國 (D)世界貿易組織。
14. (D) 臺灣曾受日本統治五十年，日本統治臺灣的開始與結束，分別是因哪一場戰爭？ (A)日俄戰爭、甲午戰爭 (B)甲午戰爭、第一次世界大戰 (C)第一次世界大戰、第二次世界大戰 (D)甲午戰爭、第二次世界大戰。
15. (D) 國民政府在下列哪一場戰爭中失利，迫使政府撤退來臺？ (A)1937年中日戰爭 (B)甲午戰爭 (C)韓戰 (D)國共內戰。
16. (C) 「1970年代全球經濟不景氣，使許多中小企業倒閉，幸賴政府早已推動該項經濟建設，協助產業界度過災厄。」請問：上述的「該項經濟建設」是下列何者？ (A)政府積極拓展外銷 (B)全力發展高科技產業 (C)十大建設 (D)推動貿易自由化、國際化。
17. (A) 中華民國原本在聯合國享有崇高的地位，後來卻陷入國際孤立的困境。這樣的情況與下列哪些事有關？(甲)1979年中華民國與美國斷交；(乙)1971年中華民國退出聯合國；(丙)1954年簽訂《中美共同防禦條約》；(丁)1950年韓戰爆發 (A)甲乙 (B)乙丙 (C)丙丁 (D)甲丁。
18. (B) 臺灣文化協會曾發行何種刊物，致力於啟迪民智、喚醒民族意識及加強社會觀念？ (A)《臺灣日日新報》 (B)《臺灣民報》 (C)《臺南新報》 (D)《自由中國》。
19. (B) 1949年政府公布某項法律規定：「每日上午一時起至五時止為宵禁時間。嚴禁聚眾集會、罷工、罷課及遊行請願等行動；嚴禁以文字標語或其他方法散布謠言。居民無論家居外出，皆需隨身攜帶身分證，以備檢查，否則一律拘捕。」請問：這是哪一項法律的規定？ (A)《動員戡亂時期臨時條款》 (B)《戒嚴令》 (C)《六三法》 (D)《中華民國憲法》。
20. (D) 日本治臺時期，新知識分子推動政治社會運動不遺餘力，除了與日本殖民政府作抗爭外，也著重在啟迪民智、喚醒民族意識，以文化活動來達成文化教育的目標。請問：以上是以哪一機構來推動的？ (A)臺北天然足會 (B)臺灣議

會 (C)臺灣總督府 (D)臺灣文化協會。

21. ( D ) 1980 年代以後，臺灣全力發展資訊、電子等高科技產業，以促使經濟轉型。下列何者為此一政策實施時臺灣的製造重心？ (A)楠梓加工出口區 (B)石油化學工業園區 (C)高雄中國鋼鐵廠 (D)新竹科學工業園區。

22. ( C ) 臺灣自治史上，由臺灣青年主張改革臺灣政治體制，提出設置臺灣議會的時代背景為何？ (A)英法聯軍之役，臺灣被迫開港 (B)第二次世界大戰爆發，列強分身乏術 (C)第一次世界大戰，民族自決的思潮盛行 (D)1937 年中日戰爭爆發，激起民心抗日。

23. ( D ) 自 1930 年代起，日本為了配合「南進政策」的需要，企圖使臺灣成為南進的補給基地，開始推動工業化，當時的經濟政策為何？ (A)工業日本，農業臺灣 (B)工業日本，農業南洋 (C)工業南洋，農業臺灣 (D)工業臺灣，農業南洋。

24. ( B ) 西來庵事件又被稱為「噍吧哖事件」，此事件對漢人的抗日運動有何影響？ (A)漢人的武裝運動從此變本加厲，日人防不勝防 (B)漢人武裝運動大致停止，改以政治社會運動爭取臺人的權益 (C)因臺人死傷慘重，從此完全臣服於日人，不再反抗 (D)抗日運動化暗為明，並且加入許多原住民分子。

25. ( C ) 「兩會於本年 4 月 27 日至 29 日在新加坡進行會談。本次會談為民間性、經濟性、事務性與功能性。雙方同意加強經濟交流、文教科技交流、能源資源開發與交流。」請問：上述報導應出現在兩岸關係的哪一時期？ (A)武力對抗時期 (B)政治對峙時期 (C)兩岸交流時期 (D)經濟制裁時期。

26. ( C ) 日本在 1896 年由日本國會通過「六三法」當作治臺的依據，促使何人可以專制集權的方式治理臺灣？ (A)日本天皇 (B)日本首相 (C)臺灣總督 (D)日本警察。

27. ( B ) 下列為某一組織的布告：「日本要索臺灣，竟有割臺之款……。今已無天可籲，無人肯援。臺民唯有自主，推擁賢者，權攝臺政。事平之後，當再請命中朝，作何辦理。」請問：此一組織為何？ (A)臺灣文化協會 (B)臺灣民主國 (C)臺灣總督府 (D)臺灣議會。

28. ( C ) 從 1948 年開始，一直到 1975 年為止，蔣中正一共做了 5 任的總統。蔣中正可以連選連任這麼多次，其法源基礎為何？ (A)《中華民國憲法》 (B)《戒嚴令》 (C)《動員戡亂時期臨時條款》 (D)《地方自治條例》。

29. ( C ) 美援促進臺灣的整體經濟成長，控制臺灣戰後的通貨膨脹，減緩了外匯短缺的困境。請問：美國積極援助臺灣，主要是因為何事的發生？ (A)國共內戰 (B)中華民國退出聯合國 (C)韓戰爆發 (D)中共與美國建交。

30. ( A ) 李爺爺是居住在烏日地區的臺人，他在日本治臺時期所就讀的小學最有可能是哪一所？ (A)烏日公學校 (B)臺中日語講習所 (C)烏日小學校 (D)臺中中學校。

31. ( D ) 某位記者報導米荒現象：「臺灣上年產米量是 6,200 萬石，現在人口 670 萬，最多消費也不會超過 6,000 萬石。因此，米糧生產不虞匱乏。主要是因為有人走私轉賣，導致米價在半個月間，由每斤 12～14 元暴漲至 30 元。」請問：這樣的情形可能發生在哪一事件後？ (A)甲午戰爭爆發 (B)1937 年中日戰爭爆發 (C)第一次世界大戰爆發 (D)第二次世界大戰結束。

32. ( A ) 1949 年，中共軍隊攻打金門，結果慘遭敗北，共軍傷亡慘重。這是指下列哪一次戰役？ (A)古寧頭戰役 (B)韓戰 (C)八二三炮戰 (D)國共內戰。

33. ( D ) 「第一次世界大戰結束後，帝國主義國家多遭逢殖民統治的困境，包括如何面對殖民地蓬勃發展的民族運動，及如何繼續利用殖民地的資源以擴張經濟。」針對上述局勢，當時的統治者在臺灣採取下列何項措施？ (A)頒布「六三法」 (B)征討臺灣民主國 (C)開始建造縱貫鐵路 (D)實行內地延長主義。

34. ( B ) 戰後初期，臺灣的國民學校裡常可見到「我要說國語，不說方言」的標語。這是受到當時政府推行的哪一項政策所致？ (A)民生主義政策 (B)推廣中華文化 (C)本土化政策 (D)多元語言政策。

35. ( B ) 嘉義市圓環附近豎立著一尊雕像，這是 1931 年代表臺灣參加日本甲子園棒球比賽的嘉義農林學校當家投手吳明捷，也是電影《KANO》的主角。請問：嘉義農林學校在日本治臺時期，屬於哪一種類型的教育制度？ (A)初等教育 (B)中等教育 (C)高等教育 (D)一般教育。

36. ( C ) 我國在中華人民共和國「一個中國」的堅持與打壓下，而在國際社會中處於尷尬的地位，為了突破這種外交封鎖，我國在 1980 年代後期改變外交策略，開始用經濟實力讓國際看到臺灣。請問：這個轉變是從哪一總統任內開始的？ (A)蔣中正 (B)蔣經國 (C)李登輝 (D)陳水扁。

37. ( D ) 後藤新平擔任臺灣民政長官期間，訴求是先以科學的方法對島上的風俗民情進行調查之後，再設計一個合宜的殖民統治政策，強化殖民統治及獲取臺灣資源。在這樣的前提之下，總督府在治臺初期，進行了一連串的相關措施。下列總督府的哪個措施，就是基於此一原則而實施？ (A)保甲制度 (B)皇民化運動 (C)頒布《六三法》 (D)人口普查。

38. ( A ) 1970 年代興起的鄉土文學，其主要內容為何？ (A)關注農民、勞工等小人物的遭遇 (B)關懷祖國大陸的思鄉情懷 (C)關懷教育文化、校園安全的推動 (D)凝聚反共愛國思想的民族意識。

39. ( B ) 臺灣由於對美貿易連年順差，累積龐大外匯存底，不僅引起美國施壓要求我方開放市場，同時，也有新臺幣升值與通貨膨脹的壓力。於是，政府在 1980 年代後，提出何種經貿政策以因應此問題？ (A)改行保護國內產業的進口替代政策 (B)提出自由化、國際化的經貿政策 (C)設置加工出口區，輸出輕工業產品 (D)推動多項重大公共投資，發展重工業。

40. ( D ) 臺灣歌謠《媽媽請你也保重》：「若想起故鄉，目屎就流落來，免掛意，請妳放心，我的阿母。雖然是孤單一個，雖然是孤單一個，我也來到他鄉的這個省都，不過我是真勇健的，媽媽請妳也保重。」依上文所述，歌詞描述農村青年來到大城市工作的時代背景為何？ (A)臺灣青年被日軍徵調到南洋作戰 (B)國共內戰，政府準備遷臺 (C)清鄉運動 (D)臺灣農業社會轉型工業社會。

# 新竹市立育賢國民中學112學年度第二學期七年級公民科補考題庫

**單一選擇題**

1. (C) 太陽國是由數種族群組成，存在多種語言，日前政府考慮是否應該限制其他語言，只使用官方規定的語言，但又擔心出現文化不平等現象，所以想聽取各族群代表的意見，下列哪一位的建議較能避免文化位階的發生？ (A)代表甲：為促進國家團結，同一國家的人民只能使用固定語言 (B)代表乙：各族群擁有自己的傳統語言，社會必會面臨嚴重分裂 (C)代表丙：鼓勵民眾去學習不同的語言，尊重不同文化的多樣性 (D)代表丁：強制民眾使用單一語言，會讓語言產生高低優劣之分。

2. (B) 小德約瑪麗外出吃飯，其對話內容如附圖所示。請問：兩人互動顯示的意義應與下列何項敘述較相關？

(A)同儕產生潛移默化的社會化效果 (B)不同文化背景產生不同的社會規範 (C)宗教信仰與法律之間產生的衝突 (D)現代社會更加重視民眾食的安全。

3. (A) 我國社會福利制度中包含依法實施的強制性保險。附圖中克菁所指的社會保險應為下列何者？

(A)勞工保險 (B)軍人保險 (C)全民健康保險 (D)國民年金保險。

4. (D) 社會大眾對於白手起家的成功創業者給予很高的評價，但對於靠爸族的成功創業者則評價不高。請問：造成兩者評價不同的原因在於下列何者的差異？ (A)職業聲望 (B)教育程度 (C)所得收入 (D)家世背景。

5. (C) 下列何者的做法符合我們所要追求的「公平正義」？ (A)大仁捐贈健身器材給國軍 (B)小馬阻止少女坐博愛座 (C)勤勞基金會發放清寒獎助學金 (D)阿聖謾罵插隊人士。

6. (D) 附表為主計總處公布 2018 年家庭收支調查，最高所得家庭可支配的所得比最低所得家庭高出約 6 倍，創下近六年新高。此反映出下列社會中哪一方面的的不公平？

| | 前 20% 所得家庭 | 最低 20% 所得家庭 |
|---|---|---|
| 可支配的所得 | 209.9 萬元 | 34.5 萬元 |

(A)需求滿足 (B)貢獻程度 (C)責任負擔 (D)利益分配。

7. (B) 依照附圖中對話，姊姊此舉受到我國哪一項法律的保障？

(A)《就業保險法》 (B)《憲法》 (C)《性別平等工作法》 (D)《社會救助法》。

8. (D) 同學們正在分享對媒體訊息的看法，下列何人已建立媒體識讀能力？ (A)小胤：內容不重要，誇張最重要 (B)小銘：只要有附圖片，都是真的 (C)小瑀：家人分享的，先相信再說 (D)小添：應查證資訊，免得被誤導。

9. (D) 閱聽人通常從傳播媒體得知各種社會資訊，下列何者不是傳播媒體將資訊傳遞給閱聽人的管道？ (A)報紙 (B)電視 (C)網際網路 (D)電影。

10. (B) 下列是阿成所做的公民作業，內容是介紹「次文化」。請問：作業中的哪一觀點錯誤？ (A)次文化是異於主流文化的獨特文化 (B)次文化與主流文化之間，存在著層次高低的分野 (C)次文化可讓一個社會的文化內涵更加多元和豐富 (D)次文化的「次」，並不是次等的意思。

11. (D) 班上一群同學正為了公民課「探討保障人性尊嚴的政策」上臺報告進行討論，下列哪一位同學所提之政策最可能已偏離主題？ (A)推動優質長期老人日間照護 (B)家長請領 2 至 4 歲育兒津貼 (C)補助減輕盲友導盲犬飼育費 (D)提高營養午餐價格至每餐一百元。

12. (C) 阿司想為社會貢獻一己之力，希望藉由參與團體成為志工的方式關心公共事務。請問：阿司應該參加下列哪一個團體才能達成這個目標？ (A)中華電信工會 (B)臺灣大學籃球社 (C)人安基金會 (D)政黨。

13. (A) 各種社會規範對行為的約束力不盡相同，根據附圖情境判斷，下列敘述何者正確？

(A)風俗習慣對外在行為產生約束力　(B)法律對外在行為無規範效果　(C)違反風俗習慣將受到公權力處罰　(D)違反法律只會受到社會輿論的批評。

14. (B) 妍琪蒐集資料時看到附圖的現象，根據內容，以下何者說明正確？

(A)以法國與臺灣社會相比，生活文化較為文明先進　(B)多加了解每個文化的風俗習慣，可避免發生誤解　(C)弱勢文化應認同強勢文化的價值觀，減少差異性　(D)許多傳統文化不符時宜，阻礙世界多元文化發展。

15. (D) 下列何者不是政府推動社會安全制度時，所應該關注的重點？　(A)弱勢群體的生活需要　(B)失業勞工的就業輔導　(C)受災戶的急難救助　(D)大老闆的薪資所得。

16. (C) 文化存在於世界各個角落，不論是都市或鄉村，甚至是原始的森林中，只要有人類的足跡，就會發展出自己的文化。請問：這顯示出文化的哪一項特性？　(A)累積性　(B)制約性　(C)普遍性　(D)差異性。

17. (C) 參與學校的社團活動，成為國中學生參與團體的難忘經驗與人生記憶。下列四位學生談論到參加社團對自己的影響，何者是以達成共同目標為目的？　(A)雅筑：「我參加國樂社，發現自己愈來愈進步，更勇於表現自己。在那個環境裡，因為大家目標一致，讓我有自學的動力。」　(B)丞傑：「我國一參加攝影社、國二參加烹飪社。因為我不是很喜歡念書，所以想藉由社團活動來探索興趣，了解自己。」　(C)怡甄：「在籃球隊裡，我們會一起為了下次能進入到全國比賽而努力。」　(D)宜德：「我因為參加管樂團，學會與不同的人相處。曾經在社團跟學長姊起過衝突，因此學習到化解矛盾的方法。」。

18. (A) 有一公部門內部召開會議，哪一位同仁的發言可用來說明公共意見具有公開性？　(A)同仁甲：公聽會不能只是私底下做一做，沒有民眾參與　(B)同仁乙：民眾意見本來就容易受到干擾而不停產生變化　(C)同仁丙：討論公眾議題時，現場很難只存在同一種意見　(D)同仁丁：政府制定政策通常會以多數民眾意見做為參考。

19. (B) 以下是班上同學對老師講述「文化的意義」時所做的摘要。請問：其中何人的摘要敘述錯誤？

| |
|---|
| 艾雅：是某一群人所共享的生活方式。<br>晉安：是自然界的任何現象。<br>進達：是人類生活的全部。<br>燕婷：是人類經由創造或學習而來的一切成果。 |

(A)艾雅　(B)晉安　(C)進達　(D)燕婷。

20. (D) 新聞主播正在播報一則國外消息，如附圖所示。請問：這則消息顯示下列何者的重要性？

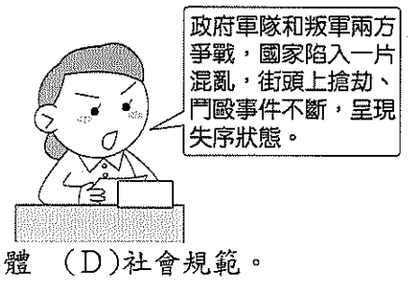


(A)社會福利　(B)政治理念　(C)傳播媒體　(D)社會規範。

21. (B) 在民主社會中，有許多表達公共意見的方式。關於附圖中兩人所討論的內容，以下哪一項說明正確？




(A)通常採取激烈的抗爭手段　(B)透過團體組織向政府施壓　(C)主要訴求為維護社會秩序　(D)最終目的是為了永續發展。

22.（C）以下為一位少數族群代表與政府官員協商時所做出的回應，他的憂慮應是擔心政府造成下列何種狀況？

| |
|---|
| 政府以主觀立場認為我們的生活方式不夠進步，因此制定這項政策，但這是我們族群獨特的風俗習慣和信仰方式，並未對他人造成危害，若強制我們遵循政策，將導致傳統文化難以傳承，請政府多多傾聽族人的聲音。 |

（A)次文化　（B)多元文化　（C)文化位階　（D)文化差異。

23.（C）下列哪一種社會規範是透過各種經典和戒律，獎善懲惡，來約束社會成員的日常生活？　（A)法律　（B)倫理道德　（C)宗教信仰　（D)風俗習慣。

24.（C）美華剛從大學資訊系畢業，在一家餐廳打工，她想利用週末參加縣政府舉辦的電腦訓練課程，增強自己的專長，以便找到更適合自己的工作。由上述可知，美華最有可能因哪一項社會福利措施而受益？　（A)福利服務　（B)社會津貼　（C)就業安全　（D)社會保險。

25.（D）由於經濟不景氣及物價飆漲對弱勢民眾影響甚鉅，為妥善照顧經濟弱勢、遭受急難或災害者，提供短期日常生活所需食物及物資援助，以建置完善的社會安全網，避免食物浪費，因此市政府推動食物銀行法的相關條例。根據上述內容，請問市政府的該項政策主要是落實何項理念？　（A)營造健康環境　（B)促進經濟發展　（C)提升地方產業　（D)維護公平正義。

26.（D）從附圖兩位父親的煩惱中可以看出社會中哪一方面的不公平？

（A)貢獻程度　（B)責任負擔　（C)需求滿足　（D)利益分配。

27.（D）安安收到一張意願調查表，如附圖。請問：參與這項活動能夠發揮何種精神？

| |
|---|
| 號召志工參與罕病兒義賣活動<br>籌募罕病兒醫療經費，需要您的協助！<br>參加者姓名：＿＿＿＿＿＿<br>聯絡電話：＿＿＿＿＿＿ |

（A)環境保育　（B)終身學習　（C)性別平權　（D)公民自治。

28.（B）幾位好友正在討論如何培養媒體識讀的能力，成為一個理性自覺的閱聽人。請問：下列何人應加強媒體識讀的能力？

（A） 


（B）


（C）


（D）


29.（C）國家通訊傳播委員會對國內某家媒體開罰百萬，下列為其開罰原因，由此可知，裁罰標準應為下列何者？

| |
|---|
| ◎製播假新聞<br>◎播報不實<br>◎提供錯誤資訊 |

（A)揭露事實真相　（B)製播獨家新聞　（C)損害公共利益　（D)新聞種類過多。

30.（B）一名青少年在社群媒體上發表近況，如附圖所示，根據圖中敘述，下列何項正確？

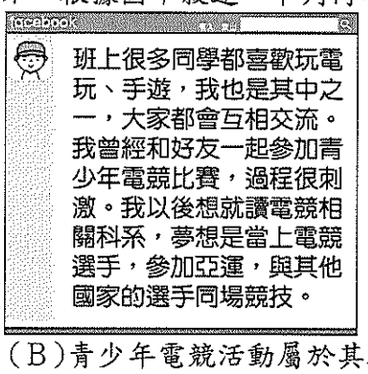


（A)電競教育已經成為我國教育的主流文化　（B)青少年電競活動屬於其族群的獨特文化　（C)與其他文化相比，電競活動較為次等　（D)電競文化無法與社會中各文化同時共存。

31.（C）《史記》紀載，漢孝文帝勤政愛民，在位時施行德政，發放糧食、生活必需品等救助弱勢人民，安定民心，其執政主要成就便在於穩定漢初社會秩序，發展經濟，開創文景之治。由上述可知，為達到此一目的，何種政策的重要性？（A)國防外交　（B)教育文化　（C)社會安全　（D)國民經濟。

32.（B）社會生活中會接觸許多團體，根據附圖對話判斷，對於此團體的敘述，下列何者正確？

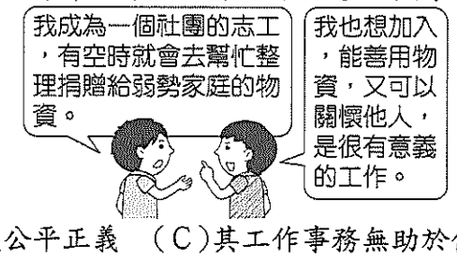


（A)個人一出生即歸屬其中　（B)可維護公平正義　（C)其工作事務無助於促進社會進步　（D)不受任何法律的約束

。

33. (C) 下列是小麥對「社會規範」的認知，其中何者錯誤？ (A)所有社會規範都可能隨著時間與空間而產生變動 (B)社會規範中，只有法律才具有強制力 (C)在價值觀多元的現代社會，宗教信仰是維持社會秩序不可或缺的手段 (D)社會中的種種互動，應依循社會規範。

34. (C) 「社會安全」制度的建立是希望人民能夠普遍擁有基本生活的保障，此可由下列哪一項政府施行的措施加以理解？ (A)文化部推動文化體驗教育，希望擴展學校藝文教育的內容 (B)國防部編列軍事預算穩定成長，強化戰力以維護國家安全 (C)行政院成立專案小組協助震災區居民，辦理災後救助工作 (D)地方政府爭取主辦國際賽事，期能進行體育人才互動交流。

35. (A) 下列文化特徵與其舉例的配對，何者正確？ (A)普遍性：古今中外，每個社會都會為了計畫人類的活動，及維持民間活動週期，而發明自己的曆法來計算時間 (B)差異性：巴布亞新幾內亞的原住民雖過著原始生活，仍舊擁有自己的文化 (C)普遍性：文字是經過長時間、一代一代演變而來的 (D)累積性：在臺灣，禮金要用紅色信封裝，不能像日本那樣用白色信封袋。

36. (B) 政府施政應受人民公評，附圖內容呈現出公共意見的哪一項特性？




(A)不穩定性 (B)公開性 (C)差異性 (D)影響性。

37. (D) 幾位同學正在分享對「文化」此一概念的理解，下列何人的說明完全正確？

(A)


(B)


(C)


(D)


38. (C) 下表是智孝在課堂上報告某個專題的部分內容，根據表中資料判斷，下列何者最有可能是她報告的主題？

| 團體 | 內容 | 進行期間 |
|---|---|---|
| 車禍受難者救援協會 | 推動強制汽車責任保險法通過 | 1990～1996年 |
| 婦女新知基金會 | 推動兩性工作平等法通過 | 1990～2001年 |
| 董氏基金會 | 推動菸害防制法通過 | 1991～1997年 |
| 兒童福利聯盟 | 推動兒童及少年福利法通過 | 2001～2003年 |

註：兩性工作平等法已於 2008.01.16 修正為性別工作平等法；兒童及少年福利法已於 2011.11.30 修正為兒童及少年福利與權益保障法。

(A)傳播媒體擬定公共政策 (B)民間團體設定公共議題 (C)公共意見影響政策制定 (D)民間團體舉辦公民投票。

39. (D) 建茗為某篇期刊文章做了以下的摘要，下列哪一項可做為此摘要的範例？

| |
|---|
| 摘要：握有權力或資源者，認定自身的生活方式或價值觀較為優越，因此以資源優勢決定不同文化的高低地位，限縮其他文化的發展空間。 |

(A)文化部決定補助紀錄片拍攝 (B)原住民族固定舉辦豐年祭典 (C)電視臺開辦青少年電競比賽 (D)殖民政府強制推行官方語言。

40. (B) 下列有關「風俗習慣」的敘述，何者錯誤？ (A)對社會成員不具有強制力 (B)「長幼有序」屬於風俗習慣 (C)是人類生活中最早發展出來的社會規範形式 (D)是社會中長期累積的生活經驗所形成。

# 新竹市立育賢國民中學112學年度第2學期7年級健康教育科補考題庫

一、單擇題

1. (B) 小剛的奶奶要去開刀，因為奶奶發現視力愈來愈模糊，醫生說這是由於老化，造成水晶體混濁導致的。小剛的奶奶應該是有下列哪一項視力問題呢？ (A)青光眼 (B)白內障 (C)飛蚊症 (D)視網膜剝離。
2. (D) 在常見的口腔疾病中，哪些能透過定期檢查就能及早發現並且及早治療？ (A)牙周病 (B)齲齒 (C)蛀牙 (D)以上皆是。
3. (C) 許多人在40歲以後，水晶體逐漸失去彈性，沒辦法配合距離調整厚薄度，會出現近距離閱讀的困擾，此種現象稱為？ (A)近視 (B)遠視 (C)老花眼 (D)青光眼。
4. (D) 下列對二手菸的敘述，何者正確？ (A)二手菸是主動或自願吸入的環境菸煙 (B)側流菸煙為被吸菸者吸入肺部後再吐的煙霧 (C)二手菸包含15%的側流菸煙和85%的主流菸煙 (D)二手菸是分布最廣且有害的室內空氣汙染物，已經被聯合國世界衛生組織列為「頭號的致癌物質」。
5. (D) 如果你的朋友(未滿18歲)慫恿你嘗試酒精飲料，以下哪個才是最恰當的應對方法？ (A)答應，聽朋友的話嘗試 (B)逃跑，不再跟他做朋友 (C)拒絕，並向警察舉報你的朋友 (D)拒絕，並勸朋友不要再以身試法。
6. (A) 我們可以如何保護好我們的牙齒呢？(甲)刷牙要有順序地刷(乙)遵循貝式刷牙法(丙)牙齒痛的時候再去看醫生(丁)多吃含糖食物及碳酸性食物。 (A)甲乙 (B)甲丙 (C)乙丙 (D)丙丁。
7. (A) 除了靠刷牙或使用牙線預防口腔疾病外，也能夠透過健康飲食強健牙齦，下列何者是對牙齒有益的食物？ (A)蔬菜水果 (B)可口可樂 (C)漢堡薯條 (D)糖果餅乾。
8. (B) 口腔中的細菌聚集在牙齒表面形成薄膜，具有黏性，漱口無法有效去除，必須藉由刷牙清潔，請問這稱為什麼？ (A)牙周病 (B)牙菌斑 (C)牙頸部 (D)牙縫間。
9. (D) 關於牙齒常見的疾病下列敘述何者錯誤？ (A)牙菌斑若沒有刷乾淨，不到一天的時間就會鈣化形成牙結石 (B)齒列不正的原因很多，會影響人的發音、咀嚼、外觀與自信，也會造成清潔不易而發生齲齒問題，需要諮詢牙科醫師 (C)牙周組織被細菌感染引起紅腫熱痛的發炎反應，稱為牙齦炎 (D)齲齒的問題好發在兒童與青少年，成年之後就不容易出現。
10. (C) 關於戒除成癮物質正確認知，下列何者正確？ (A)皮皮：「成癮通常很快時間就可戒除。」 (B)安安：「成癮戒除不管是自願或強制，戒除的成效都一樣。」 (C)可可：「成癮戒除初期最煎熬的就是停止後產生的戒斷症狀。」 (D)恩恩：「成癮戒除單人戒除再犯率比團體戒除者低。」
11. (B) 陳先生想要戒除咀嚼多年檳榔的習慣，他聽太太建議，想吃檳榔時就吃一顆超涼薄荷曼陀珠。請問陳先生採取的方法是下列哪一種戒癮方式？ (A)塑造無菸酒檳榔的環境 (B)尋找替代物或方法 (C)分散注意力 (D)貼心提醒。
12. (B) 依安全駕駛目的制定酒測標準，當吐氣所含酒精濃度達每公升多少以上，不能駕駛車輛，以保障用路人與行車人本身的安全？ (A)0.10mg／L (B)0.13mg／L (C)0.15mg／L (D)0.25mg／L。
13. (C) 剛出生的嬰兒會出現近的物品看不清楚，遠的物品才看得清楚，主要是因為眼軸太短或角膜弧度太平影響視覺成像的清晰度所導致，這通常大約在幾歲左右就可以慢慢恢復正常？ (A)2歲 (B)4歲 (C)6歲 (D)8歲。
14. (C) 丞丞因為工作的關係，需要一直盯著電腦螢幕畫圖和開會，導致丞丞佩戴的眼鏡厚度越來越厚，最近發現會有頭痛嘔吐的狀況，一度還會有點看不清楚，聰明的你，認為丞丞的眼睛可能發生什麼事了呢？ (A)白內障 (B)飛蚊症 (C)急性青光眼 (D)乾眼症。
15. (D) 有關牙齒的構造，下列哪一位同學的說明有誤？
(A)阿澤：「象牙質是牙齒的主體。」 (B)博宗：「牙髓腔充滿了微血管與神經。」 (C)小嬿：「琺瑯質無法再生，所以要好好照顧牙齒。」 (D)琳琳：「琺瑯質是由鈣與磷組成，很堅硬不怕磨也不怕酸。」。
16. (A) 當光線進入角膜、瞳孔、水晶體後，能夠將所見的物品成像，並到大腦讓我們能清楚辨別，是透過哪兩個構造所構成？ (A)視網膜、視神經 (B)玻璃體、脈絡膜 (C)視網膜、眼外肌 (D)鞏膜、視神經。
17. (D) 如果牙結石太久沒清，牙結石會吸引更多細菌附著並破壞牙周，當牙周組織被感染引起紅腫，可能會導致哪個部位出血、萎縮，甚至牙齒脫落？ (A)琺瑯質 (B)象牙質 (C)牙髓腔 (D)牙齦。
18. (C) 在一則公民議題標題中寫到「全球海洋頭號垃圾竟然不是吸管？是「菸蒂」塑膠！」，這代表菸蒂不僅危害人體也造成海洋生態及環境受到影響。請問，關於環境菸蒂的汙染可依下列哪一項法律做檢舉開罰？
(A)《菸害防制法》 (B)《兒童及少年福利與權益保障法》 (C)《廢棄物清理法》 (D)《刑法》。

19. (B) 下列何者不是口腔病變的前兆症狀？ (A)口腔黏膜變白 (B)牙齒變得更白 (C)舌頭麻木而沒有知覺 (D)吃東西或喝水的時候感到困難。

20. (C) 以下何者不是健康檢查的重要性？ (A)幫助瞭解生長發育的狀況 (B)早期發現疾病，早期治療 (C)藉此作為學業成績加分項目 (D)根據檢查結果，修正健康行為。

21. (C) 上週健教老師有提到三種保護牙齒的方法，每項方法都有需要特別注意的地方，下列方法和對應的選項，哪一個是正確的？ (A)牙醫師會替我們清除牙結石，達到預防牙周病的效果—健康飲食 (B)如果能早期發現問題，接受治療的效果會更好—正確的潔牙 (C)有害牙齒的食物像是碳酸性飲料，會使口腔呈現酸性的—健康飲食 (D)如果不是每次進食後都有潔牙，則預防齲齒的效果就非常有限—定期檢查牙齒。

22. (D) 大安喜歡每天喝含糖手搖飲料，有一天喝著冰涼的珍珠奶茶時，牙齒對溫度感覺很敏感，有點不太舒服，但覺得這樣的感覺還可以忍耐，過一會兒就沒事了，不過後來發現頻率越來越高，在家人和同學的勸誡下，決定還是前往牙醫診所進行檢查。忍耐後的大安，接下來可能面臨什麼情況？(甲)牙齒會慢慢好起來(乙)若侵蝕到牙髓腔，則會出現明顯的疼痛感(丙)細菌也可能會從擴散至周邊的牙周組織(丁)嚴重時可能會導致全身性細菌感染。 (A)甲乙丙 (B)甲丙丁 (C)甲乙丁 (D)乙丙丁。

23. (A) 關於媒體中成癮物質的內容，下列項目中哪些是正確的？(甲)只要出現足以影響青少年的物質，都須標示警語規範(乙)置入性行銷的成癮物質只是一種宣傳，並不會造成青少年的模仿使用(丙)面對媒體中的畫面，透過停一停，想一想，找一找的方式，是為批判思考(丁)文化中的成癮物質例如：酒與菸，視為一種社交文化，應多給予青少年學習(戊)目前針對青少年面對成癮物質警示，只有宣導並無特定罰則。 (A)甲丙 (B)乙丁 (C)甲戊 (D)丙戊。

24. (B) 除了牙線外，牙線棒、牙籤也能消除牙菌斑，各有各的擁護者，下列每個人的看法所對應的用具，何者錯誤？ (A)小萍喜歡攜帶方便的潔牙方式—牙線棒、牙籤 (B)小芯希望能保持清潔的線段是乾淨的—牙籤 (C)小紋希望不要造成地球的垃圾量變多—牙線、牙籤 (D)小名擔心牙縫變大，也不喜歡不好保存的潔牙用具—牙線、牙線棒。

25. (B) 每一種物質的出現都由它的歷史與對社會的影響。關於檳榔這項物質，下列敘述中何者錯誤？ (A)檳榔在家庭經濟上曾經是一種支持性的商品 (B)檳榔本身是深根性植物，但因種於山坡地才導致與土石流掛名 (C)檳榔子本身就是一種危害物質，目前已證實會導致癌症 (D)檳榔也影響環境與個人衛生的問題，在醫療上口腔癌比率提升。

26. (A) 下列是同學們討論戒菸使者林先生的經驗分享心得，關於討論內容，何者有誤？ (A)西西：「戒斷症狀是心理依賴最常見的情形，林先生因為這樣才戒了好幾次。」 (B)芮芮：「這個心理性的依賴真的需要家人與社會資源的支持才能有效克服。」 (C)可可：「我想，菸這種物質讓中樞神經產生快樂與興奮的回饋，才會讓人成癮。」 (D)奇奇：「其實，成癮就像冷水煮青蛙一樣，剛開始可能不會有什麼發覺，等到溫度熱時要逃離就很困難。」

27. (C) 小楷的爸爸知道吸菸有害健康，也可能危害家人，但因吸菸成癮，戒菸需要花些時間。因此每當小楷爸爸想吸菸時，一想到家人健康，便自己到陽臺或家中廁所吸菸，以減少對家人的危害。關於上述小楷爸爸的作法，是否正確？ (A)錯誤，因為樣小楷與家人還是會吸到一手煙 (B)正確，選擇到獨立空間吸菸就如公共吸菸室一樣，避免影響他人 (C)錯誤，因為就算在陽臺吸菸，三手煙也會殘留於陽臺，家人還是會接觸 (D)正確，進入廁所抽菸是最好的方式，因抽菸完洗淨身體與手部，減少煙物附著。

28. (C) 透過對事件的問題，回想自我生活經驗中自己或他人的影響，並好好蒐集資料，了解其問題產生的原因，並有效地提出自己的看法與表達立場。這樣的學習歷程是屬於下列哪一項能力？ (A)能主動自我監督管理 (B)可有效調整與建立自我對事件的情緒反應 (C)可肯定自己的想法並予以堅決拒絕 (D)了解他人的問題並主動關心他人。

29. (B) 專法的設立，主要以該問題已成為共通性的關注焦點，也考量到國人的需求而制定此法。下列關於菸害防制專法的敘述，下列何者正確？ (A)為了讓吸菸者不被汙名化而設立《菸害防制法》 (B)《菸害防制法》為一部從販賣到教育內容規範的專法 (C)該法案所涵蓋的範圍不包括私人機構，主要以公家單位為主 (D)《菸害防制法》主要規範的對象以販賣者為主。

30. (A) 人生在不同階段會面臨不同的健康問題，下列對象對應的健康檢查，何者錯誤？ (A)儒儒為了瞭解肚子胎兒的生長發育狀況，可以做產後健康檢查 (B)雅雅在準備結婚時，為了避免下一代有遺傳疾病，進行婚前健康檢查 (C)萱萱的奶奶因生理功能逐漸退化，所以每年可以進行一次身體健康檢查 (D)美美在入學前，都需要繳交一份身體健康檢查表。